• 2A.III

PARA LA SIGUIENTE ESTRUCTURA, LOS SIGUIENTES DATOS SON CONOCIDOS

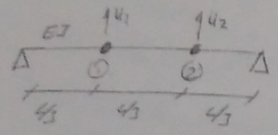

$$[k] = \frac{162EI}{5L^3}\begin{bmatrix} 8 & -7 \\ -7 & 8 \end{bmatrix}$$

$$[M] = \frac{mL}{3}\begin{bmatrix} 1 & 0 \\ 0 & 1 \end{bmatrix}$$

SE SOLICITA:

1) OBTENER LAS FRECUENCIAS PROPIAS Y MODOS PROPIOS (POR UNIFORMIDAD, TOMAR EL VALOR UNITARIO PARA PRIMER MODO)

2) OBTENER POR ANÁLISIS MODAL, LOS DESPLAZAMIENTOS CUANDO EXISTE UNA CARGA EN NODO 1 $P_1 = 100 \operatorname{sen} 25t$

3) OBTENER LAS ECUACIONES DE MOVIMIENTO Y LEY DE DESPLAZAMIENTOS, CONSIDERANDO RAZONES DE AMORTIGUAMIENTO DEL 10% EN EL SISTEMA

3 b)

TENEMOS LA SIGUIENTE ESTRUCTURA:

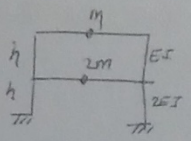

CON $[m] = \begin{bmatrix} 2m & 0 \\ 0 & m \end{bmatrix}$

$[k] = \begin{bmatrix} 3k & -k \\ -k & k \end{bmatrix}$ $k = \frac{24EI}{h^3}$

Y CONOCIDOS $W_1 = \sqrt{\frac{k}{2m}}$; $W_2 = \sqrt{\frac{2k}{m}}$, $\phi = \begin{bmatrix} 1/2 & -1 \\ 1 & 1 \end{bmatrix}$

SE REQUIERE

1) RESPUESTA A VIBRACIÓN LIBRE CONOCIENDO QUE $u(0) = (1/2 \;\; 1)^T$; $\dot{u}(0) = (0 \;\; 0)^T$

2) MISMO CASO PERO CON $u(0) = (-1/2 \;\; 2)^T$ y $\dot{u}(0) = (0 \;\; 0)^T$

3) SIMILAR SI SISTEMA QUEDA SOMETIDO A:

$p_1(t) = P(t)$
$p_2(t) = 2P(t)$ $\qquad P = 100\ kN$

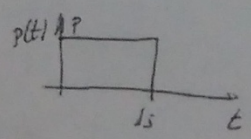

PC N2

PARA EL SISTEMA DE LA FIGURA SE CONOCEN LOS PARÁMETROS SIGUIENTES:

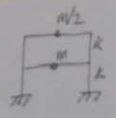

$\omega_1 = 0{,}765\sqrt{k/m}$ $\quad \phi_1 = (0{,}707\ 1)^T$

$\omega_2 = 1{,}848\sqrt{k/m}$ $\quad \phi_2 = (-0{,}707\ 1)^T$

$[m] = \begin{bmatrix} m & 0 \\ 0 & m/2 \end{bmatrix}$, $[k] = \begin{bmatrix} 2k & -k \\ -k & k \end{bmatrix}$

EN LUGAR DISTINTO SE APLICA UNA FUERZA IMPULSIVA EN LA MASA DEL [illegible] NIVEL, DE DURACIÓN $T_1/2$ (DONDE T_1 ES EL PERÍODO PROPIO DE VIBRACIÓN DE LA [illegible] Y AMPLITUD P_0

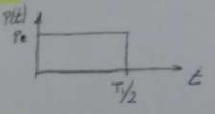

SE PIDE DEFINIR LAS ECUACIONES DE MOVIMIENTO Y LOS DESPLAZAMIENTOS EN FUNCIÓN DEL TIEMPO DURANTE LA FASE DE EXCITACIÓN (NO NECESARIA LA FASE DE VIBRACIÓN LIBRE)

b)

EL SISTEMA DE LA FIGURA SE ENCUENTRA SOMETIDO A VIBRACIÓN LIBRE Y TIENE COMO MATRICES [k] y [M] LAS DEFINIDAS MÁS ARRIBA. SE PIDE ESTIMAR LA AMPLITUD DE DESPLAZAMIENTO POR MÁXIMA MODAL SABIENDO QUE $q_1(0) = q_2(0) = 0$ Y LAS VELOCIDADES EN $t = 0$ s SON 0,1 cm/s

$k = \begin{bmatrix} 10 & -5 \\ -5 & 10 \end{bmatrix}$ $\quad M = \begin{bmatrix} 1 & 0 \\ 0 & 1 \end{bmatrix}$

Bis

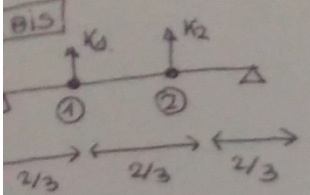

$$[k] = \frac{162EI}{5L^3}\begin{bmatrix} 8 & -7 \\ -7 & 8 \end{bmatrix}$$

$$[M] = \frac{ML}{3}\cdot\begin{bmatrix} 1 & 0 \\ 0 & 1 \end{bmatrix}$$

, obtenen frecuencias propias y modos propios.

$$\det([K] - \omega^2[m]) = 0.$$

$$\left[K\begin{pmatrix} 8 & -7 \\ -7 & 8 \end{pmatrix} - \omega^2 m \begin{bmatrix} 1 & 0 \\ 0 & 1 \end{bmatrix} \right] = 0.$$

$$\begin{vmatrix} 8K - \omega^2 m. & -7K \\ -7K & 8K - \omega^2 m \end{vmatrix} = (8K - \omega^2 m)(8K - \omega^2 m) - 49K^2 = 0.$$

$$\omega^4 m^2 - 16K\omega^2 m + 15K^2 = 0$$

nbio de variable.

$$\omega_1^2 = t_1 = 15.\frac{K}{m} \longrightarrow \omega_1 = \sqrt{15}.\frac{K}{m}$$

$$\omega_2^2 . t_2 = \frac{K}{m} \longrightarrow \omega_2 \sqrt{K/m}.$$

odos propios.

ara $\phi_1 = \omega_1$. $|[K] - \omega_1^2[m]|[\phi_1]| = 0.$

$$\left.\begin{pmatrix} 8K - \omega^2 m & -7K \\ -7K & 8K - \omega^2 m \end{pmatrix}\begin{pmatrix} \phi_{11} \\ \phi_{21} \end{pmatrix} = \begin{pmatrix} 0 \\ 0 \end{pmatrix}\right\} \boxed{\phi_{11} = -\phi_{21}} \rightarrow \phi_{11} = 1$$

$$\phi_{21} = -1$$

$$\left.\begin{pmatrix} 8K - 15K & -7K \\ -7K & 8K - 15K \end{pmatrix}\begin{pmatrix} \phi_{11} \\ \phi_{21} \end{pmatrix} = \begin{pmatrix} 0 \\ 0 \end{pmatrix}.\right\}$$

$$\boxed{\phi_1 = \begin{pmatrix} 1 \\ -1 \end{pmatrix}}$$

a $\phi_2 = \omega_2$.

$$\begin{pmatrix} 8K - K & -7K \\ -7K & 8K - K \end{pmatrix}\begin{pmatrix} \phi_{12} \\ \phi_{22} \end{pmatrix} = \begin{pmatrix} 0 \\ 0 \end{pmatrix}.$$

$$\phi_{12} = \phi_{22} \rightarrow \phi_{11} = 1$$

$$\phi_{22} = 1$$

$$\boxed{\phi_2 = \begin{pmatrix} 1 \\ 1 \end{pmatrix}}$$

b) obtener por análisis modal, los desplazamientos con una carga en el nodo 1. $P_1 = 100 \operatorname{sen} 25t$

$m_n \cdot \ddot{q}_n + K_{in} q_n = P_n \cdot \operatorname{sen} \omega t \rightarrow P_n = \phi_n^t \cdot P_0 = 100.$

$P_{10} = \phi_1^t P_0 = 100.$

$P_1 = (1-1)\begin{pmatrix}100\\0\end{pmatrix} = 100$

$P_2 = (1\ 1)\begin{pmatrix}100\\0\end{pmatrix} = 100.$

1 Grado de libertad.

$u(t) = \dfrac{P_0}{K\cdot(1-\beta^2)} \cdot \operatorname{sen} \omega t$

$\beta = \dfrac{w}{w_n}. \quad q_n(t) = \dfrac{P_n}{K_n \cdot (1-\beta_n^2)} \cdot \operatorname{sen}$

c). Ecuaciones de movimiento y desplazamientos suponiendo un amortiguacion del 10%.

$q_n(t) = \dfrac{P_n}{K_n} \cdot \dfrac{1}{1-\left(\frac{w_n}{w}\right)^2} \cdot \operatorname{sen} \omega t$

$K_1 = (1\ -1)\begin{pmatrix}8 & -7\\ -7 & 8\end{pmatrix}\begin{pmatrix}1\\-1\end{pmatrix}\left(\dfrac{162EI}{5L^3}\right) = \dfrac{6.162EI}{L^3} = 30K.$

$K_2 = 2K.$

$q_1(t) = \dfrac{100}{30K} \cdot \dfrac{1}{1-\left(\frac{25}{\sqrt{15\,K/m}}\right)^2} \operatorname{sen} 25t$

$q_2(t) = \dfrac{100}{2K} \cdot \dfrac{1}{1-\left(\frac{25}{\sqrt{K/m}}\right)^2} \cdot \operatorname{sen} 25t$

$M = \phi = \begin{Bmatrix}u_1(t)\\u_2(t)\end{Bmatrix} = \begin{pmatrix}1 & 1\\-1 & 1\end{pmatrix}\begin{pmatrix}q_1\\q_2\end{pmatrix} = \begin{pmatrix}q_1 & q_2\\-q_1 & q_2\end{pmatrix}.$

$$u(t) = \frac{P_0}{K}\left[\frac{1-\beta^2}{(1-\beta^2)^2+(2\zeta\beta)^2}\right]\operatorname{sen}\omega t \quad \frac{-2\zeta\beta}{(1-\beta^2)^2+(2\zeta\beta)^2}\cdot\cos\omega t$$

$m\{\ddot{u}\} + c\{\dot{u}\} + K\{M\} = [P].$

$$\frac{m\cdot\{\ddot{u}\}}{m} + \frac{c\{M\}}{m} + \frac{K\{M\}}{m} = \frac{[P]}{m} \rightarrow \ddot{u} + 2w_n\zeta\dot{u} + w_n^2 \cdot M = \frac{P}{K\cdot m}$$

$$q_n(t) = \frac{P_n}{\beta_n}\cdot\left[\frac{1-\left(\frac{w}{w_n}\right)^2}{(1-\beta_n^2)^2+(2\zeta\beta_n)}\cdot\operatorname{sen}\omega_n t + \frac{-2\zeta\beta_n}{(1-\beta_n^2)+(2\zeta\beta_n)^2}\cdot\cos\right.$$

$$U = \begin{Bmatrix}u_1(t)\\u_2(t)\end{Bmatrix} = \phi_1 q_1 + q_2\phi_2$$

PB.8.15

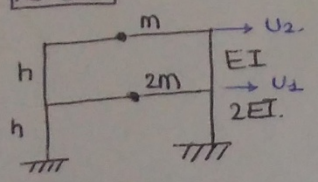

$$[m] = \begin{bmatrix} 2m & 0 \\ 0 & m \end{bmatrix} \quad [k] = \begin{bmatrix} 3k & -k \\ -k & k \end{bmatrix}$$

$$K = \frac{24EI}{H^3} \qquad \omega_1 = \sqrt{K/2m} \qquad \omega_2 = \sqrt{2k/m}$$

$$\phi = \begin{bmatrix} 1/2 & -1 \\ 1 & 1 \end{bmatrix}$$

1) Respuesta a vibración libre dado $u(0) = (1/2 \;\; 1)^t$
$\dot{u}(0) = (0 \;\; 0)^t$

$$u(t) = \Sigma \phi_n \cdot q_n$$

$$q_n = \frac{\phi_n^t [m] \{u\}}{\phi_n^t [m] \phi_n}$$

$$q_1(0) = \frac{(1/2 \;\; 1) \begin{bmatrix} 2m & 0 \\ 0 & m \end{bmatrix} \begin{bmatrix} 1/2 \\ 1 \end{bmatrix}}{(1/2 \;\; 1) \begin{bmatrix} 2m & 0 \\ 0 & m \end{bmatrix} \begin{bmatrix} 1/2 \\ 1 \end{bmatrix}} = \frac{(1/2 \;\; 1) \begin{bmatrix} m \\ m \end{bmatrix}}{(1/2 \;\; 1) \begin{bmatrix} m \\ m \end{bmatrix}} = 1$$

$$q_2(0) = \frac{(-1 \;\; 1) \begin{bmatrix} 2m & 0 \\ 0 & m \end{bmatrix} \begin{bmatrix} 1/2 \\ 1 \end{bmatrix}}{(-1 \;\; 1) \begin{bmatrix} 2m & 0 \\ 0 & m \end{bmatrix} \begin{bmatrix} -1 \\ 1 \end{bmatrix}} = \frac{(-1 \;\; 1) \begin{bmatrix} m \\ m \end{bmatrix}}{(-1 \;\; 1) \begin{bmatrix} -2m \\ m \end{bmatrix}} = 0$$

Aplicando la fórmula

$$u(t) = \Sigma \phi_n q_n = \Sigma \phi_n \left[q_n(0) \cos \omega_n t + \frac{\dot{q}_n(0)}{\omega} \cdot \operatorname{sen} \omega_n t \right]$$

$$u(t) = \begin{Bmatrix} u_1(t) \\ u_2(t) \end{Bmatrix} = \begin{pmatrix} 1/2 \\ 1 \end{pmatrix} \cdot 1 \cos \omega_1 t + \frac{0}{\omega_1} \cdot \operatorname{sen} \omega_1 t + \begin{pmatrix} -1 \\ 1 \end{pmatrix} 0 \cdot \cos \omega_2 t + \frac{0}{\omega_2} \operatorname{sen}$$

ϕ_1 (modo 1) ϕ_2 (modo 2)

$$u(t) = \begin{Bmatrix} u_1(t) \\ u_2(t) \end{Bmatrix} = \begin{pmatrix} 1/2 \\ 1 \end{pmatrix} \cos \omega_1 t$$

b) cdom con $u(0) = (1/2 \quad 2)^T \quad \dot{u}(0) = (0 \quad 0)^T$

$$q_1(0) = \frac{(1/2 \quad 1)\begin{pmatrix} 2m & 0 \\ 0 & m \end{pmatrix}\begin{pmatrix} -1/2 \\ 2 \end{pmatrix}}{(1/2 \quad 1)\begin{pmatrix} 2m & 0 \\ 0 & m \end{pmatrix}\begin{pmatrix} 1/2 \\ 1 \end{pmatrix}} = 1.$$

$$q_2(0) = \frac{(-1 \quad 1)\begin{pmatrix} 2m & 0 \\ 0 & m \end{pmatrix}\begin{pmatrix} -1/2 \\ 2 \end{pmatrix}}{(-1 \quad 1)\begin{pmatrix} 2m & 0 \\ 0 & m \end{pmatrix}\begin{pmatrix} -1 \\ 1 \end{pmatrix}} = 1.$$

$$u(t) = \begin{Bmatrix} u_1(t) \\ u_2(t) \end{Bmatrix} = \begin{pmatrix} 1/2 \\ 1 \end{pmatrix} 1 \cdot \cos w_2 t + \begin{pmatrix} -1 \\ 1 \end{pmatrix} 1 \cdot \cos w_1 t$$

c) Si sometemos al sistema a

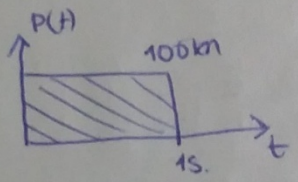

$P_1(t) = P(t)$

$P_2(t) = 2P(t)$

$$u(t) = \frac{P_0}{k}(1 - \cos wnt).$$

Dos grados de libertad [P][K]; $[w_1, w_2]$.

$$\left.\begin{aligned} P_n &= \phi_n^T [P] \\ H_n &= \phi_n^T [H] \phi_n \\ K_n &= \phi_n^T [K] \phi_n \end{aligned}\right] \quad P = \begin{bmatrix} P_1 \\ P_2 \end{bmatrix} = \begin{bmatrix} 100 \\ 200 \end{bmatrix} \rightarrow$$

$$P_1 = \underbrace{(1/2 \quad 1)}_{\phi_1^T}\begin{pmatrix} 100 \\ 200 \end{pmatrix} =$$

$$P_2 = \underbrace{(-1 \quad 1)}_{\phi_2^T}\begin{pmatrix} 100 \\ 200 \end{pmatrix} =$$

$$K_1 = (1/2 \quad 1)\begin{bmatrix} 3K & -K \\ -K & K \end{bmatrix}\begin{bmatrix} 1/2 \\ 1 \end{bmatrix} = 0{,}75K$$

$$K_2 = (-1 \quad 1)\begin{bmatrix} 3K & -K \\ -K & K \end{bmatrix}\begin{bmatrix} -1 \\ 1 \end{bmatrix} = 6K.$$

$$q_n(t) = \frac{P_n}{K_n}(1 - \cos wnt) \rightarrow q_1(t) = \frac{250}{0{,}75K}(1 - \cos\sqrt{K/2 \cdot m}\, t)$$

$$\rightarrow q_2(t) = \frac{100}{6K}(1 - \cos\sqrt{2K/m}\, t)$$

$$u(t) = \Sigma \phi_n \cdot q_n(t)$$

$$u(t) = \begin{Bmatrix} u_1(t) \\ u_2(t) \end{Bmatrix} = \begin{pmatrix} 1/2 \\ 1 \end{pmatrix} q_1(t) + \begin{pmatrix} -1 \\ 1 \end{pmatrix} q_2(t)$$

PC BIS

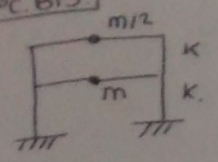

$\omega_1 = 0{,}765\sqrt{\frac{K}{m}}$ $\quad \phi_1 = (0{,}707 \;\; 1)^T$

$\omega_2 = 1{,}848\sqrt{\frac{K}{m}}$ $\quad \phi_2 = (-0{,}707 \;\; 1)^T$

$[m] = \begin{bmatrix} m & 0 \\ 0 & m/2 \end{bmatrix}$ $\quad [K] = \begin{bmatrix} 2K & -K \\ -K & K \end{bmatrix}$

En cierto instante se aplica una fuerza impulsiva de duración $T_1/2$.

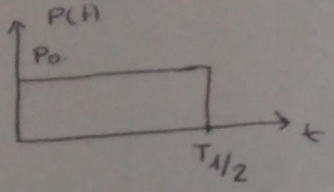

Escribir las ecuaciones de movimiento y los desplazamientos en función del tiempo durante la excitación.

Ec. movimiento: $m\ddot{U} + KU = Po$.

$$\begin{bmatrix} m & 0 \\ 0 & m/2 \end{bmatrix}\begin{bmatrix} \ddot{U}_1 \\ \ddot{U}_2 \end{bmatrix} + \begin{bmatrix} 2K & -K \\ -K & K \end{bmatrix}\begin{bmatrix} U_1 \\ U_2 \end{bmatrix} = \begin{bmatrix} P_0(t) \\ 0 \end{bmatrix}$$

Desp. en función del tiempo para vibración [illegible]

$U(t) = \frac{Po}{K}(1 - \cos \omega n t)$.

$P_1 = (0{,}707 \;\; 1)\begin{bmatrix} Po \\ 0 \end{bmatrix} = 0{,}707\, Po \rightarrow K_1 = (0{,}707 \;\; 1)\begin{bmatrix} 2K & -K \\ -K & K \end{bmatrix}\begin{bmatrix} 1 \end{bmatrix}$

$P_2 = (-0{,}707 \;\; 1)\begin{bmatrix} Po \\ 0 \end{bmatrix} = -0{,}707\, Po \rightarrow K_2 = (-0{,}707 \;\; 1)\begin{bmatrix} 2K & -K \\ -K & K \end{bmatrix}\begin{bmatrix} \end{bmatrix}$

$K_1 = 0{,}586K$

$K_2 = 3{,}414K$.

$q_1(t) = \frac{0{,}707\, Po}{0{,}586\, K}(1 - \cos \omega_1 t)$.

$q_2(t) = \frac{0{,}707\, Po}{3{,}414K}(1 - \cos \omega_2 t)$.

$$U(t) = \begin{vmatrix} U_1(t) \\ U_2(t) \end{vmatrix} = \begin{pmatrix} 0{,}707 \\ 1 \end{pmatrix} \cdot q_1(t) + \begin{pmatrix} -0{,}70 \\ 1 \end{pmatrix}$$

PD BIS

Sistema en vibración libre. Dados [K] y [M] estimar la amplitud de desplazamiento por análisis modal. Sabiendo $U_1(0) = U_2(0) = 0{,}3\,cm$. Velocidades en $t=0\,s$ $0{,}1\,cm/s$.

$$K = \begin{bmatrix} 10 & -5 \\ -5 & 10 \end{bmatrix} \quad m = \begin{bmatrix} 3 & 0 \\ 0 & 3 \end{bmatrix}$$

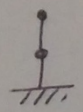

$$\det([K] - \omega^2[m]) = 0$$

$$([K] - \omega^2[m]) \begin{pmatrix} \phi_{11} \\ \phi_{21} \end{pmatrix} = 0$$

↳ Frecuencias propias y modos propios.

$U_1(0) = U_2(0) = 0{,}3\,cm$.
$\dot{U}_1(0) = \dot{U}_2(0) = 0{,}1\,cm/s$.

$\omega_1 = \sqrt{5}\ rad/s$ $\quad \phi_1 = \begin{bmatrix} 1 \\ -1 \end{bmatrix}$

$\omega_2 = \sqrt{1{,}66}\ rad/s$ $\quad \phi_2 = \begin{bmatrix} 1 \\ 1 \end{bmatrix}$

$$u(t) = \sum \phi_n \cdot q_n(t)$$

$$u(t) = \sum \phi_n \left[q_n(0) \cdot \cos \omega_n t + \frac{\dot{q}_n(0)}{\omega_n} \cdot \operatorname{sen} \omega_n t \right]$$

$$q_1(0) = \frac{\phi_1^t [m][u]}{\phi_2^t [m] \phi_1} = \frac{(1\ -1) \begin{bmatrix} 3 & 0 \\ 0 & 3 \end{bmatrix} \begin{bmatrix} 0{,}3 \\ 0{,}3 \end{bmatrix}}{(1\ -1) \begin{bmatrix} 3 & 0 \\ 0 & 3 \end{bmatrix} \begin{bmatrix} 1 \\ -1 \end{bmatrix}} = 0$$

$$q_2(0) = \frac{\phi_2^t [m] [u]}{\phi_2^t [m] \phi_2} = \frac{(1\ 1) \begin{bmatrix} 3 & 0 \\ 0 & 3 \end{bmatrix} \begin{bmatrix} 0{,}3 \\ 0{,}3 \end{bmatrix}}{(1\ 1) \begin{bmatrix} 3 & 0 \\ 0 & 3 \end{bmatrix} \begin{bmatrix} 1 \\ 1 \end{bmatrix}} = 0{,}3$$

$$\dot{q}_1(0) = \frac{\phi_1^T [m] \dot{U}_0}{\phi_1^t [m] \phi_1} = \frac{(1\ -1) \begin{bmatrix} 3 & 0 \\ 0 & 3 \end{bmatrix} \begin{bmatrix} 0{,}1 \\ 0{,}1 \end{bmatrix}}{(1\ -1) \begin{bmatrix} 3 & 0 \\ 0 & 3 \end{bmatrix} \begin{bmatrix} 1 \\ -1 \end{bmatrix}} = 0$$

$\dot{q}_2(0) = 0{,}1$.

$$(t) = \begin{Bmatrix} u_1(t) \\ u_2(t) \end{Bmatrix} = \left[\begin{pmatrix} 1 \\ -1 \end{pmatrix} 0 \cdot \cos \omega_1 t + \frac{0}{\omega_1} \operatorname{sen} \omega_1 t + \begin{pmatrix} 1 \\ 1 \end{pmatrix} 0{,}3 \cos \omega \right.$$

$$\left. + \frac{0{,}1}{\omega_n} \cdot \operatorname{sen} \omega_2 t \right]$$

Escuela Técnica Superior de Ingenieros Navales. Universidad Politécnica de Madrid

Curso 2015-2016 DINÁMICA DE ESTRUCTURAS (Final) 27_01_2016

EJERCICIOS PRÁCTICOS: Tiempo 1h 15 minutos

PP1 (2.5p)

En el techo puente de una fragata existen 2 palos de antenas y equipos, asimilables a sistemas como los de la figura (suponer mástil empotrado en el techo del puente).

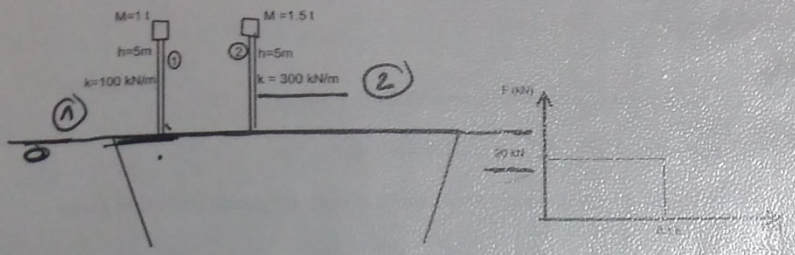

Se produce una explosión en una zona cercana, quedando sometidos los mástiles a una fuerza como la mostrada en la figura. Se solicita:

1.- (0.6p) Obtener el desplazamiento máximo para el mástil 3 respecto al techo puente

2.- (0.5p) Fuerza cortante y momento flector en la base

3.- (0.7p) Similar respecto al mástil 2. Conclusiones

4.- (0.7p) Si en el caso 2, el momento flector es un 15% mayor del admisible, justificar qué parámetro modificaría para reducir las tensiones.

PP2 (2.5p)

El soporte de un equipo de medición tiene una rigidez de 40 kN/m y una masa de 150 kg. Se conoce que la razón de amortiguamiento es ξ. En cierto momento se pone en funcionamiento el generador de emergencia situado en un local cercano, que genera una fuerza armónica de amplitud 100kN y frecuencia 2πf. Sabiendo que cuando $W/W_n = 3$, la fuerza transmitida al equipo es del 20% de la fuerza máxima de excitación, se pide:

1.- (1.25p) Calcular los valores de la frecuencia de excitación para que la fuerza transmitida sea menor de 70 kN

2.- (1.25p) Si el equipo de medida se sustituye por otro similar pero con masa 400 kg, y la frecuencia del generador de emergencia se fija a f = 2.5 Hz, ¿Cuál será el valor de la fuerza transmitida?

PP3 (2.5p)

Una estructura se asemeja a la mostrada en la figura, y se conocen los siguientes datos:

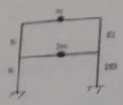

$[M] = \begin{bmatrix} 2m & 0 \\ 0 & m \end{bmatrix}$ $[K] = \begin{bmatrix} 3k & -k \\ -k & k \end{bmatrix}$ $k = 24EI/h^3$ $\omega_1 = \sqrt{k/(2m)}$ $\omega_2 = \sqrt{2k/m}$ $\Phi = \begin{bmatrix} 1/2 & -1 \\ 1 & 1 \end{bmatrix}$

Se pide:

1.- (0.7p) Obtener la respuesta en vibración libre conociendo: $u(0) = (1/2 \quad 1)^T$, $\dot{u}(0) = (0 \quad 0)^T$

2.- (0.7p) Similar pero con $u(0) = (-1/2 \quad 2)^T$ y velocidad en t=0s es cero.

3) (1.1p) Obtener la respuesta de desplazamientos cuando el sistema queda sometido a una carga $p_1(t)=P(t)$ y $p_2(t)=2\,P(t)$, con P=100 kN

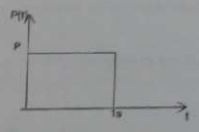

PP1

Dos mástiles de fragata quedan sometidos a una explosión

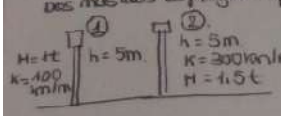



1) Desplazamiento máximo para el mástil 1.

$\cdot m_2\ddot{u} + K_1 M = P_0$.

$P_0 = 20kn$.
$H_0 = 1T$.
$h = 5$.
$K_2 = 100\ kn/m$.

$T_n = \frac{2\pi}{\omega_n} = \frac{2\pi}{10} = 0,628$.

$\omega_n = \sqrt{\frac{K}{m}} = \sqrt{\frac{100}{1}} = 10\ rad/s$

$I_1 = P_0 t_1 = 20 \cdot 0,1 = 2kn/s$.

$M_{O_1} = \frac{I}{m_2 \omega_1} = \frac{2 \cdot 10^3}{1\,10^3 \cdot 10} = 0,2\ m$.

2) Fuerza cortante y momento flector en la base.

$|M_f| = F_{1,1} L + F_{2,1} L$

$M_f = F \cdot h$

$\sigma_{max} = \frac{M_f}{W_n\ (mástil)}$

$F = K \cdot M = 100 \cdot 0,2 = 20$.

$M_f = 20 \cdot 5 = 100$.

3) Similar al mástil 2.

$m_2 \cdot \ddot{u} + K_2 M = P_0$.

$P_0 = 20kN$.
$M_2 = 1,5t$
$h = 5$
$K_2 = 300\ Kn/m$.

$\omega_n = \sqrt{\frac{K}{m}} = \sqrt{\frac{300}{1,5}} = 14,14\ rad/s$

$T_n = \frac{2\pi}{\omega_n} = \frac{2\pi}{14,14} = 0,444$

$\frac{t_2}{T_n} = 0,225$

PULSO CORTO

$I_2 = P_0 \cdot t_2 = 20 \cdot 0,1 = 2kn/s$.

$M_{O_1} = \frac{I}{m_2 \omega_2} = \frac{2 \cdot 10^3}{1,5 \cdot 10^3 \cdot 14,14} = 0,094\ m$.

$F_2 = K \cdot M = 300 \cdot 0,09 = 28,2$.

$M_f = 20 \cdot 5 = 100$

EJERCICIO PRÁCTICO 3 (PP8) - ENERO 2016.

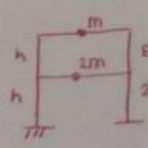

$[M] = \begin{bmatrix} 2m & 0 \\ 0 & m \end{bmatrix}$ $[K] = \begin{bmatrix} 3K & -K \\ -K & K \end{bmatrix}$ $K = 24EI/h^3$ $\omega_1 = \sqrt{K/2M}$ $\omega_2 = \sqrt{2K/M}$ $\Phi = \begin{bmatrix} 1/2 & -1 \\ 1 & 1 \end{bmatrix}$

1) obtener la respuesta en vibración libre con $u(0) = (1/2 \;\; 1)^t$, $\dot{u}(0) = (0 \;\; 0)^t$

Matriz modal $[\Phi] = \begin{bmatrix} 1/2 & -1 \\ 1 & 1 \end{bmatrix}$

$q_n(t) = q_n(0)\cos\omega_n t + \frac{\dot{q}_n(0)}{\omega_n}\operatorname{sen}\omega_n t$

MODO 1

$q_1(0) = \frac{\Phi_1^t [m] u(0)}{\Phi_1^t [m] \Phi_1} = \frac{[1/2 \;\; 1] \begin{bmatrix} m & 0 \\ 0 & 2m \end{bmatrix} \begin{pmatrix} 1/2 \\ 1 \end{pmatrix}}{[1/2 \;\; 1] \begin{bmatrix} m & 0 \\ 0 & 2m \end{bmatrix} \begin{bmatrix} 1/2 \\ 1 \end{bmatrix}} = \frac{[\frac{1}{2}m \;\; m]}{[\frac{1}{2}m \;\; m]}$

$= \frac{\frac{1}{2}\cdot\frac{1}{2}m + m}{\frac{1}{2}\cdot\frac{1}{2}m + m} = \frac{\frac{m}{4} + m}{\frac{m}{4} + m} = \frac{\frac{5m}{4}}{\frac{5m}{4}} = 1$

$\left.\begin{matrix} q_1(0) = 1 \\ \dot{q}_1(0) = 0 \end{matrix}\right\} q_1(t) = \cos\omega t$

MODO 2

$q_2(0) = \frac{\Phi_2^t [m] u(0)}{\Phi_2^t [m] \Phi_2} = \frac{[-1 \;\; 1] \begin{bmatrix} m & 0 \\ 0 & 2m \end{bmatrix} \begin{pmatrix} 1/2 \\ 1 \end{pmatrix}}{[-1 \;\; 1] \begin{bmatrix} m & 0 \\ 0 & 2m \end{bmatrix} \begin{pmatrix} -1 \\ 1 \end{pmatrix}} = \frac{[-m \;\; 2m]}{[-m \;\; 2m]}$

$= \frac{-\frac{m}{2} + 2m}{m + 2m} = \frac{-\frac{m}{2} + \frac{4m}{2}}{3m} = \frac{3m/2}{3m} = \frac{3m}{2} : \frac{3m}{1} = \frac{3m}{2 \cdot 3m}$

$\left.\begin{matrix} q_2(0) = \frac{1}{2} \\ \dot{q}_2(0) = 0 \end{matrix}\right\} q_2(t) = \frac{1}{2}\cdot\cos\omega_2 t$

- los desplazamientos $u(t) = \sum \Phi_n q_n$.

$$u(t) = \sum \Phi_n q_n = \begin{Bmatrix} U_1(t) \\ U_2(t) \end{Bmatrix} = \begin{Bmatrix} \frac{1}{2} \\ 1 \end{Bmatrix} \cos\omega_1 t + \begin{Bmatrix} -1 \\ 1 \end{Bmatrix} \frac{1}{2}\cdot\cos\omega_2 t.$$

mayor influencia de ω_2

) Repetir para $u(0) = (-1/2 \quad 2)^t$ y velocidad $t=0$ en ω_1.

Matriz modal. $[\phi] = \begin{bmatrix} 1/2 & -1 \\ 1 & 1 \end{bmatrix}$ $\quad u(0) = (-1/2 \quad 2)^t$, $\dot{u}(0) = (0 \quad 0)^t$

$$q_n(t) = q_n(0) \cos \omega_n t + \frac{\dot{q}_n(0)}{\omega_n} \operatorname{sen} \omega_n t$$

$\boxed{\text{Modo 1}}$

$$\cdot\ q_1(0) = \frac{\phi_1^t [m]\, u(0)}{\phi_1^t [m]\, \phi_1} = \frac{[1/2 \quad 1] \begin{bmatrix} m & 0 \\ 0 & 2m \end{bmatrix} \begin{pmatrix} -1/2 \\ 2 \end{pmatrix}}{[1/2 \quad 1] \begin{bmatrix} m & 0 \\ 0 & 2m \end{bmatrix} [1/2 \quad 1]} = \frac{[\frac{1}{2}m \quad 2m] \begin{pmatrix} -1/2 \\ 2 \end{pmatrix}}{[\frac{1}{2}m \quad 2m] \begin{pmatrix} 1/2 \\ 1 \end{pmatrix}}$$

$$= \frac{\frac{1}{2}m \cdot \left(-\frac{1}{2}\right) + 2m}{\frac{1}{2} \cdot \frac{1}{2}m + m} = \frac{-\frac{m}{4} + \frac{8m}{4}}{\frac{m}{4} + \frac{4m}{4}} = \frac{\frac{7m}{4}}{\frac{5m}{4}} = \frac{7m}{4} \cdot \frac{4}{5m}$$

$$= \boxed{\frac{7}{5}} \qquad \left.\begin{array}{l} q_1(0) = \frac{7}{5} \\ \dot{q}_1(0) = 0 \end{array}\right\} q_1(t) = \frac{7}{5} \cos \omega_1 t$$

$\boxed{\text{Modo 2}}$

$$q_2(0) = \frac{\phi_2^t [m]\, u(0)}{\phi_2^t [m]\, \phi_2} = \frac{[-1 \quad 1] \begin{bmatrix} m & 0 \\ 0 & 2m \end{bmatrix} \begin{pmatrix} -1/2 \\ 2 \end{pmatrix}}{[-1 \quad 1] \begin{bmatrix} m & 0 \\ 0 & 2m \end{bmatrix} \begin{pmatrix} -1 \\ 1 \end{pmatrix}} = \frac{[-m \quad 2m] \begin{pmatrix} -1/2 \\ 2 \end{pmatrix}}{[-m \quad 2m] \begin{pmatrix} -1 \\ 1 \end{pmatrix}}$$

$$= \frac{\frac{m}{2} + 4m}{4m + 2m} = \frac{\frac{m}{2} + \frac{8m}{2}}{3m} = \frac{9m}{2} \cdot \frac{3m}{1} = \frac{9m}{2 \cdot 3m} = \boxed{\frac{3}{2}}$$

$$\left.\begin{array}{l} q_2(0) = 3/2 \\ \dot{q}_2(0) = 0 \end{array}\right\} q_2(t) = \frac{3}{2} \cos \omega_1 t$$

• Desplazamientos $u(t) = \sum \phi_n q_n$

$$\boxed{u(t) = \sum \phi_n q_n = \begin{Bmatrix} u_1(t) \\ u_2(t) \end{Bmatrix} = \begin{Bmatrix} 1/2 \\ 1 \end{Bmatrix} \frac{7}{5} \cos \omega_1 t + \begin{Bmatrix} -1 \\ 1 \end{Bmatrix} \frac{3}{2} \cos \omega_2 t}$$

Mayor influencia de ω_2.

3) Desplazamiento cuando el sistema queda sometido a

$P_1(t) = p(t)$
$P_2(t) = 2p(t)$
$P = 100kN$

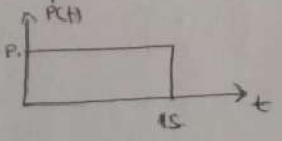



$(P_2(t) = 2p(t) = 200kN$
$P_3(t) = P. = 100kN$

$$P_N = \begin{cases} P_1 = (1/2 \quad 1) \cdot \begin{pmatrix} 200 \\ 100 \end{pmatrix} = 200 \\ P_2 = (-1 \quad 1) \begin{pmatrix} 200 \\ 100 \end{pmatrix} = -100 \end{cases}$$

$$K_N = \begin{cases} K_1 = (1/2 \quad 1) \begin{pmatrix} 3K & -K \\ -K & K \end{pmatrix} \begin{pmatrix} 1/2 \\ 1 \end{pmatrix} = (1/2\,K, \; 1/2\,K) \begin{pmatrix} 1/2 \\ 1 \end{pmatrix} = \\ K_2 = (-1 \quad 1) \begin{pmatrix} 3K & -K \\ -K & K \end{pmatrix} \begin{pmatrix} -1 \\ 1 \end{pmatrix} = 6K \end{cases}$$

$$M. \begin{cases} m_1 = (1/2 \quad 1) \begin{pmatrix} 2m & 0 \\ 0 & m \end{pmatrix} \begin{pmatrix} 1/2 \\ 1 \end{pmatrix} = \frac{3}{2}m. \\ m_2 = (-1 \quad 1) \begin{pmatrix} 2m & 0 \\ 0 & m \end{pmatrix} \begin{pmatrix} -1 \\ 1 \end{pmatrix} = 3m. \end{cases}$$

$$q = \frac{P_0}{K}(1-\cos \omega t)$$

$$q_1 = \frac{200}{3/4\,K}\left(1-\cos\sqrt{\frac{K}{2m}}\cdot t\right)$$

$$q_2 = \frac{-100}{6K}\left(1-\cos\sqrt{\frac{2K}{m}}\cdot t\right)$$

$$(t) = \begin{Vmatrix} U_1(t) \\ U_2(t) \end{Vmatrix} = \begin{pmatrix} 1/2 \\ 1 \end{pmatrix} \cdot \frac{200}{\frac{3}{4}K} \cdot \left(1-\cos\sqrt{\frac{K}{2m}}\cdot t\right) + \begin{pmatrix} -1 \\ 1 \end{pmatrix} \cdot \frac{-100}{6K} (1-$$

ESCUELA TECNICA SUPERIOR
DE INGENIEROS NAVALES

Asignatura PP2. EXAMEN ENERO
Alumno ..... n.º .....
Curso ..... Grupo ..... Fecha .....

Equipo de medicion $K = 40\ kN/m$ y una masa de 150kg.
Amortiguamientos = J
Generador de emergencia genera un armónico de amplitud de 100kN y $f = 2\pi f$.
Sabiendo que $W/Wn = 3$ la fuerza transmitida al equipo es del 20% de la fuerza máxima de excitacion.

1) Valores de la frecuencia de excitacion para que la fuerza transmitida sea

$K = 40\ kN/m$
$m = 150\ Kg$.
$A = 100$
$2\pi f$.

$\beta = \frac{W}{Wn} = 3.$

$F_{Transmitida} = 0,2 \cdot F_{excitacion}$

$\beta = \frac{W}{Wn} = 3 \longrightarrow \frac{F_{transmitida}}{F_{excitacion}} = 0,2 = \sqrt{\frac{1+(2J\beta)^2}{(1-\beta)^2+(2J\beta)^2}}$

$J = 0,212.$

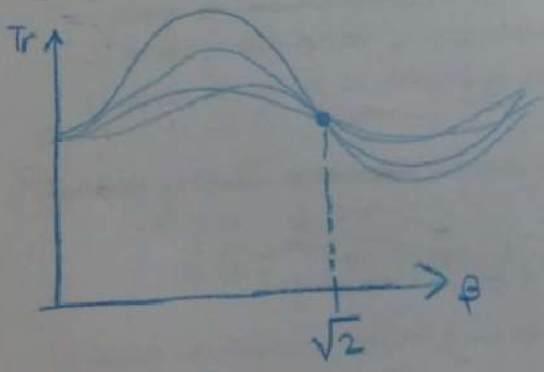

$Tr = \frac{F.\ Transmitida}{F.\ excitacion} = \frac{70}{100}$

$\frac{70}{100} = \sqrt{\frac{1+(2J\beta)^2}{(1-\beta)^2+(2J\beta)^2}}$

$\beta = 1,6. = \frac{W}{Wn.}$

$W = 1,6\ Wn = 1,6 \cdot 16,3 =$

$26,11\ rad/s = 2\pi f = \Rightarrow \boxed{f = 4,15 Hz}$

2) Sustituimos el equipo por otro de medida. $m = 400\,kg$.
La frecuencia se cambia a $f = 2{,}5\,Hz$.
¿Cuál será la F_T?

$$F_{transmitida} = F_{excitacion} \cdot \sqrt{\frac{1+(2\beta\xi)^2}{(1-\beta^2)^2+(2\beta\xi)^2}}$$

¡Ojo que β ha cambiado ahora! ⚠

$$\xi = \frac{c}{c_{crit.}} = \frac{c}{2m\omega_n} \rightarrow 0{,}212 = \frac{c}{2 \cdot 150 \cdot 26{,}11} \rightarrow c = 1660{,}6$$

$$\xi' = \frac{c}{c_{crit.}} = \frac{c}{2m\omega_n} = 0{,}1207$$

$$\omega_n = \sqrt{\frac{40 \cdot 10^3}{400}} = 10\,rad/s$$

$$F_{TR} = F_{exc} \cdot \sqrt{\frac{1+(2 \cdot 0{,}1207 \cdot 1{,}57)^2}{(1-1{,}57^2)+(2 \cdot 0{,}1207 \cdot 1{,}57)^2}}$$

$$\frac{\omega}{\omega_n} = \frac{2\pi \cdot 2{,}5}{10} = 1{,}57 = \beta$$

$$F_{excitacion} \cdot 0{,}711 = 0{,}711 \cdot 100 = \boxed{71{,}1\,kN}$$

(P1) DE LA SIGUIENTE ESTRUCTURA, SE CONOCE QUE $EI = 5000\ kN\,m^2$. LAS COLUMNAS TIENEN MASA DESPRECIABLE Y FLEXIONAL SOPORTAN UNA MASA DE 20 t CONCENTRADA EN TABLERO (ASUMIR RÍGIDO). DESPRECIAR EL AMORTIGUAMIENTO. SE PIDE:

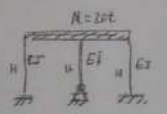

1) ANTE VIBRACIÓN LIBRE CON CONDICIONES INICIALES $u(0_-) = 0{,}05\,m$; $\dot{u}(t=0_+) = 1\ m/s$, ESTIMAR LA ALTURA "H" PARA QUE DESPLAZAMIENTO HORIZONTAL MÁXIMO NO SUPERE 3,1 cm

2) SI EL TERRENO SUFRE UN MOVIMIENTO ARMÓNICO TIPO $u(t) = u_0 \operatorname{sen} \bar{\omega} t$, CON $u_0 = 0{,}04\,m$ Y $\bar{\omega} = 20\ rad/s$, INDICAR LA SOLUCIÓN DE DESPLAZAMIENTO EN FUNCIÓN DEL TIEMPO, EXPLICAR Y COMENTAR LOS DESPLAZAMIENTOS MÁXIMOS RESPECTO AL DE EXCITACIÓN. OBTENER EL FACTOR DE TRANSMISIBILIDAD

(P2) EL SISTEMA ESTRUCTURAL SIGUIENTE, CON MASA 30t Y RIGIDEZ DE COLUMNAS EI = 3000 kN·m², QUEDA SOMETIDO A UNA FUERZA DE EXCITACIÓN $F(t) = F_0 \cdot \operatorname{sen} 10t$

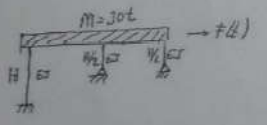

SE PIDE:

1) ALTURA DE LAS COLUMNAS "H" PARA LIMITAR LA FRECUENCIA FUNDAMENTAL A 12 rad/s

2) CALCULAR EL VALOR DE F_0 PARA CONSEGUIR QUE EL DESPLAZAMIENTO MÁXIMO NO SUPERE LOS 6 cm (ASUMIR QUE FRECUENCIA NO CAMBIA = 12 rad/s)

3) OBTENER LA FUERZA CORTANTE DE CADA COLUMNA PARA EL VALOR DE F_0 OBTENIDO PREVIAMENTE

4) OBTENER EL VALOR DE LA AMPLITUD DE DESPLAZAMIENTO HORIZONTAL ESTÁTICO ASOCIADO A F_0

(P3) 1) OBTENER LA ECUACIÓN DE MOVIMIENTO, UTILIZANDO D'ALEMBERT, DEL SIGUIENTE SISTEMA + POLINOMIO

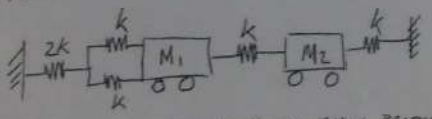

2) CALCULAR LAS FRECUENCIAS PROPIAS Y LOS MODOS PROPIOS

3) OBTENER LA AMPLITUD DE DESPLAZAMIENTO HORIZONTAL DE CADA MASA ANTE VIBRACIÓN LIBRE CON

$u_1(0) = 9\,cm$; $\dot{u}_1(0) = 0\ cm/s$; $u_2(0) = 0{,}3\,cm$; $\dot{u}_2(0) = 0\ cm/s$

(P4) PARA EL SIGUIENTE SISTEMA DE 2 GDL INDICADO EN LA FIGURA SE PIDE:

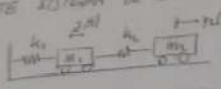

$m_1 = 35\,kg$ $\quad k_1 = 8750\,N/m$

$m_2 = 17{,}5\,kg$ $\quad k_2 = 3500\,N/m$

1) OBTENER LAS MATRICES DE RIGIDEZ Y MASA
2) CALCULAR FRECUENCIAS PROPIAS Y MODOS PROPIOS (CONSIDERAR PRIMERA COMPONENTE = 1)
3) CALCULAR LA RESPUESTA CUANDO LA MASA m_1 SE DESPLAZA 1m Y SE DEJA VIBRAR LIBREMENTE

(P5) UN SISTEMA MASA - RESORTE - AMORTIGUADOR SE SOMETE A VIBRACIÓN LIBRE. LA MASA ES DE 100 kg. SE DESPLAZA 2 cm DE SU POSICIÓN DE EQUILIBRIO Y SE LIBERA. AL FINAL DE 20 CICLOS, HAN PASADO 4 SEGUNDOS Y TIENE AMPLITUD DE 0,15 cm. CON ESTOS DATOS SE PIDE OBTENER LA RIGIDEZ "k" Y AMORTIGUAMIENTO "c"

(P6) PARA LA ESTRUCTURA DE LA FIGURA (EMPOTRADA EN PARTE INFERIOR), SE CONOCE:

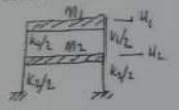

$$[M] = \begin{bmatrix} 1 & 0 \\ 0 & 1 \end{bmatrix} kg \; ; \; [K] = \begin{bmatrix} k_{11} & k_{12} \\ k_{21} & k_{22} \end{bmatrix} = \begin{bmatrix} 100 & -100 \\ -100 & 200 \end{bmatrix} kg$$

$$\omega_1 = 6{,}2\,Hz \; ; \; \omega_2 = 16{,}2\,Hz$$

$\beta_1 = 1{,}17$; $\beta_2 = 0{,}28$; razón de amortiguamiento $= 5\%$. MATRIZ MODAL $[\phi] = \begin{bmatrix} 1 & -\frac{\sqrt{5}-1}{2} \\ \frac{\sqrt{5}-1}{2} & 1 \end{bmatrix}$

SE PIDE OBTENER LOS VALORES DE DESPLAZAMIENTOS MÁXIMOS "U", CONOCIENDO EL ESPECTRO QUE SE ACOMPAÑA:

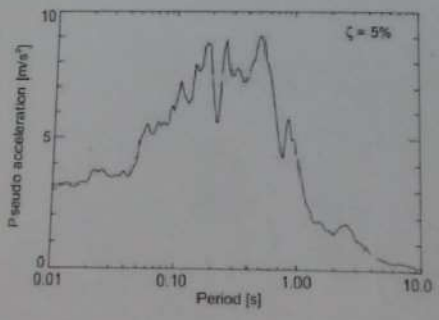

Asignatura PP1 .....
Alumno ..... n.º .....
Curso .....Grupo ..... Fecha .....

ESCUELA TECNICA SUPERIOR
DE INGENIEROS NAVALES

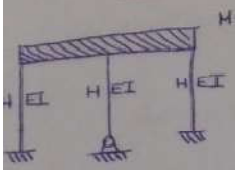

H=2m EI=5000kN·m²

Despreciamos amortiguamiento → $\xi = 0$

1) Suponiendo vibración libre.

$U(0s.) = 0{,}05m$

$\dot{U}(t=0s.) = 1 m/s$

Desplazamiento horizontal máx ($U_{max} = 8{,}1 cm$)

Calculan la altura.

$K_{equivalente} = \sum K_i = 2 \cdot \left(\frac{12EI}{H^3}\right) + \frac{3EI}{H^3} = \frac{27EI}{H^3}$

$U_{(t)} = C \cdot \cos((\omega_n t - \theta))$

$C_{(amplitud)} = \sqrt{U_0^2 + \left(\frac{\dot{U}_0}{\omega_n}\right)^2} = \sqrt{(0{,}05)^2 + \left(\frac{1}{\omega_n}\right)^2} = 8{,}1 cm \cdot 10^{-2}$

$(8{,}1 \cdot 10^{-2})^2 = (0{,}05)^2 + \frac{1}{\omega_n^2}$

$4{,}061 \cdot 10^{-3} = \frac{1}{\omega_n^2}$

$\omega_n = \sqrt{1/4{,}061 \cdot 10^{-3}} = 15{,}89$

$\omega_n = \sqrt{\frac{K}{m}} \rightarrow 15{,}89^2 = \frac{K_{eq}}{m} \rightarrow K_{eq} = 15{,}89^2 \cdot 20 \cdot 10^3$

$K_{eq} = \frac{27EI}{H^3} \rightarrow \frac{27EI}{H^3} = 15{,}89^2 \cdot 20 \cdot 10^3$

$\frac{27 \cdot (5000 \cdot 10^3)}{15{,}89^2 \cdot 20 \cdot 10^3} = H^3 \rightarrow H = 3{,}045 m \approx 3m$

2) Si sufre un movimiento armónico tipo $u(t) = u_0 \operatorname{sen} \omega t$

$\omega = 20 \text{ rad/s}$

$u_0 = 0.04 \text{ m}$

Indicar el desplazamiento en función del tiempo.

Explicar y comparar los desplazamientos máximos respecto al de excitación.

obtener el factor de transmisibilidad.

$m\ddot{u} + ku = m\ddot{u}_g(t)$

$u_p = \frac{u_0}{1-\beta^2} \cdot \operatorname{sen} \omega t + \phi$

$\beta = \frac{\omega}{\omega_n} = \frac{20 \text{ rad/s}}{15.69} = 1.275$

$u_p = \frac{0.04 \text{ m}}{(1-(1.275)^2)} \cdot \operatorname{sen}(20t + \phi)$

$u_p = \frac{0.04 \operatorname{Sen}(20t + \phi)}{-0.62485}$

Ecuación de desplazamiento en función del tiempo

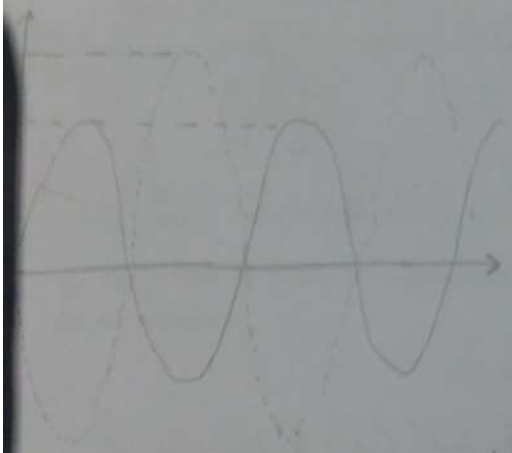

$T_R = \frac{F \text{ transmitida}}{F \text{ excitación}}$

$T_R = \frac{A \text{ transmitida}}{A \text{ excitación}}$

$(\text{transmisibilidad}) = \frac{u_p \max}{u_0} = \frac{1}{(1-\beta^2)} = \frac{1}{(1-1.27^2)} = 1.632$

$u_p \max = 0.04 \cdot 1.632 = 0.06528$

Asignatura PP2
Alumno ..... n.º .....
Curso ..... Grupo ..... Fecha .....

ESCUELA TECNICA SUPERIOR
DE INGENIEROS NAVALES

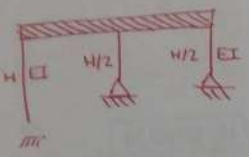

m = 30t
Rigidez EI = 8.000 kn/m²
Sometido a una fuerza de excitación F(t) = F₀ · sen 10t

1) altura de los columnas "H" para limitar la frecuencia fundamental a 12 rad/s

$\omega_n = 12$ rad/s.

$K_{eq} = \omega_1^2 = \frac{K}{m} \rightarrow K = \omega_1^2 \cdot m \rightarrow K = (12\ rad/s^2 \cdot 30.000) = 4.320.000\ N.$
$4.320\ KN$

$K_{eq} = \frac{12EI}{H^3} + 2 \cdot \left(\frac{3EI}{(H/2)^3}\right) = 4.320.000N$

$\frac{12EI}{H^3} + \frac{6EI}{(H/2)^3} = 4.320.000N. \rightarrow \frac{12 \cdot (8.000.10^3)}{H^3} + \frac{8 \cdot (8.000.10^3)}{(H/2)^3} = 4.320$

$\frac{96.000.000}{H^3} + \frac{48.000.000}{\frac{H^3}{8}} = 4.320.000 \rightarrow$ "Solver" $H = 4,8075$

2) Obtener el valor de F_0 para conseguir que el desplazamiento máximo no supere los 6cm. (la frecuencia no cambia). $\omega_n = 12$ rad/s.

A = amplitud = 6cm = 0,06m
$\omega = 12$ rad/s.

$A = \frac{F_0}{K_{eq}} \cdot \frac{1}{(1-\beta)^2} = 0,06m.$

$0,06 = \frac{F_0}{4.320.000 \cdot (1-\beta)^2} \rightarrow F_0 = 0,06 \cdot 4.320.10^3 \cdot (1-\beta)^2$

$\beta = \frac{\omega}{\omega_n} = \frac{10}{12} = 0,8\hat{3}$

$F_0 = 0,06 \cdot 4.320.10^3 \cdot (1-0,8\hat{3})$

$F_0 = 79.200\ N.$

3) Obtener la fuerza constante de cada columna.

$\frac{F_0}{K_e}$ → desplazamiento U

$\frac{F_0}{K_e} = \frac{F_1}{K_1} = \frac{F_2}{K_2} = \frac{F_3}{K_3}$

$\frac{79.200 = F_0}{4.320.000 = K_e} = \frac{F_1}{K_1} \rightarrow \frac{79,2\ 10^3}{4.320.10^3} = \frac{F_1}{\frac{12\,EI}{H^3}}$

$\frac{0,22\,EI}{H^3} = F_1$. $\frac{0,22 \cdot 8000.10^3}{4,8075^3} = 15.839,99 \approx$ **15.840 N.**

$\frac{79,2.10^3}{4.320.10^3} = \frac{F_2}{\frac{3EI}{\left(\frac{H}{3}\right)^3}} \rightarrow \frac{0,055 \cdot 8000.10^3}{2,4041^3} = F_2 = 31.679,97 \approx$ **31.680 N.**

$F_2 = F_3 = 31.860$ N.

4) Obtener el valor de la amplitud de desplazamiento horizontal estático a

a F_0.

$U_0 \rightarrow \frac{F_0}{K_e} = \frac{79.200}{4.320.000} =$ **0,0183 m.**

Asignatura PP3 .....
Alumno ..... n.º .....
Curso ..... Grupo ..... Fecha .....

ESCUELA TECNICA SUPERIOR
DE INGENIEROS NAVALES

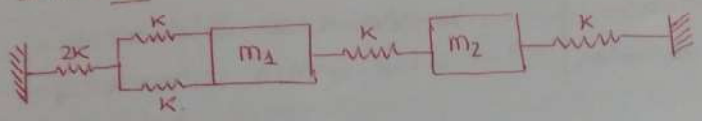

1) obtener la ec. movimiento D'alembert del sistema.

obtener la Kequivalente. $K_{eq} = K + K = 2K$.

$$K_{eq} = \frac{1}{K_{eq}} = \frac{1}{2K} + \frac{1}{2K} = \frac{2}{2K} = \frac{1}{K} = \boxed{K}$$

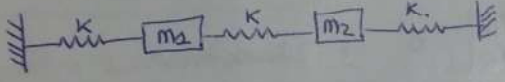

Aplicando el sistema a cada masa.

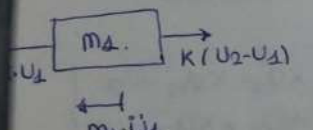

Luego la ecuación de equilibrio queda

$$\boxed{K(U_2-U_1) - KU_1 = m_1 \ddot{U}_1}$$

$$KU_2 - KU_1 - KU_1 = m_1 \ddot{U}_1$$

$$KU_2 - 2KU_1 = m_1 \ddot{U}_1$$

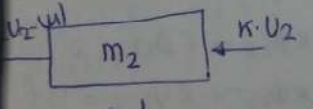

$$\boxed{-K(U_2) - K(U_2-U_1) = m_2 \cdot \ddot{U}_2}$$

$$-KU_2 - KU_2 + KU_1 = m_2 \cdot \ddot{U}_2$$

$$-2KU_2 + KU_1 = m_2 \cdot \ddot{U}_2$$

$$\boxed{[m]\{\ddot{U}\} + [K]\{U\} = 0}$$

$$\left.\begin{array}{ll} m_1\ddot{U}_1 & 2KU_1 - KU_2 = 0 \\ m_2\ddot{U}_2 & KU_1 + 2KU_2 = 0 \end{array}\right\} \quad [K] = \begin{bmatrix} 2K & -K \\ K & +2K \end{bmatrix} \quad [M] = \begin{bmatrix} m_1 \\ 0 \end{bmatrix}$$

2) calcular las frecuencias y modos propios

Frecuencias propias $|K - \omega^2 m| = 0$

$$\begin{bmatrix} 2K & -K \\ -K & 2K \end{bmatrix} - \begin{bmatrix} \omega^2 m & 0 \\ 0 & \omega^2 m \end{bmatrix} = 0.$$

$$\begin{bmatrix} 2K - \omega^2 m & -K \\ -K & 2K - \omega^2 m \end{bmatrix} = 0.$$

$2K - \omega_1^2 m - K = 0. \quad \omega_1^2 m = 3K \rightarrow$

$-K + 2K - \omega^2 m = 0 \quad \omega_2^2 m = K \rightarrow$

Resolviendo

$$\omega_1^2 = \frac{3K}{m} \rightarrow \omega_1 = \sqrt{\frac{3K}{m}}$$

$$\omega_2^2 = \frac{K}{m} \rightarrow \omega_2 = \sqrt{\frac{K}{m}}$$

$$\boxed{[K - \omega_1^2 m]\,\phi = 0}$$

$$\begin{bmatrix} 2K & -K \\ -K & 2K \end{bmatrix} - \frac{K}{m}\begin{bmatrix} m & 0 \\ 0 & m \end{bmatrix} \begin{Bmatrix} \phi_{11} \\ \phi_{12} \end{Bmatrix} = 0. \rightarrow \text{2 Ecuaciones}$$

$$\begin{bmatrix} 2K & -K \\ -K & 2K \end{bmatrix} - \frac{3K}{m}\begin{bmatrix} m & 0 \\ 0 & m \end{bmatrix} \begin{Bmatrix} \phi_{21} \\ \phi_{22} \end{Bmatrix} = 0. \longrightarrow \text{2 Ecuaciones.}$$

$$\begin{bmatrix} 2K & -K \\ -K & 2K \end{bmatrix} - \begin{bmatrix} K & 0 \\ 0 & K \end{bmatrix} \begin{Bmatrix} \phi_{11} \\ \phi_{12} \end{Bmatrix} = 0 \quad \ldots \quad \begin{cases} K\phi_{11} - K\phi_{12} = 0 \\ -K\phi_{11} + K\phi_{12} = 0 \end{cases}$$

$$\boxed{\text{Luego } \phi_{11} = \phi_{12} \quad (K\phi_{11} = K\phi_{12})}$$

Resolviendo para el otro caso de ω_2. $\longrightarrow \begin{cases} -K\phi_{21} - K\phi_{22} = 0 \\ -K\phi_{21} - K\phi_{2,2} = \end{cases}$

$$(K\phi_{21} = -K\phi_{22}) = \phi_{21} = -\phi_{22}$$

luego los modos obtenidos son $\boxed{\phi_1 = \begin{pmatrix} 1 \\ 1 \end{pmatrix}}$

$$\boxed{\phi_2 = \begin{pmatrix} 1 \\ -1 \end{pmatrix}.}$$

ESCUELA TECNICA SUPERIOR
DE INGENIEROS NAVALES

Asignatura .....
Alumno ..... n.º .....
Curso ..... Grupo ..... Fecha .....

* Va a poner algo de eq. de equilibrio o con mag. de influencia (siempre cae uno o otro)

3) Amplitud de desplazamiento horizontal de cada masa ante vibración libre considerando.

$$\left.\begin{array}{ll} u_1(0) = 0{,}3\,cm. & u_2(0) = 0{,}3\,cm. \\ \dot{u}_1(0) = 0\,cm/s. & \dot{u}_2(0) = 0\,cm/s. \end{array}\right\}$$

$$u(t) = \sum_{1}^{n} \phi_n \cdot q_n(t) = \phi_1 \cdot q_1(t) + \phi_2 q_2(t).$$

$$\boxed{q_1(t) = \frac{\phi_n^T \cdot [M] \cdot \{u\}}{\phi_n^T \cdot [M]\, \phi_n}}$$

$$(0) \rightarrow q_1(0) = \frac{[1\ 1] \begin{bmatrix} m & 0 \\ 0 & m \end{bmatrix} \begin{bmatrix} 0{,}3 \\ 0{,}3 \end{bmatrix}}{[1\ 1] \begin{bmatrix} m & 0 \\ 0 & m \end{bmatrix} \begin{bmatrix} 1 \\ 1 \end{bmatrix}} = 0{,}3.$$

$$q_2(0) = \frac{[-1\ 1] \begin{bmatrix} m & 0 \\ 0 & m \end{bmatrix} \begin{bmatrix} 0{,}3 \\ 0{,}3 \end{bmatrix}}{[-1\ 1] \begin{bmatrix} m & 0 \\ 0 & m \end{bmatrix} \begin{bmatrix} -1 \\ 1 \end{bmatrix}} = 0$$

$$(0) = 0 = \dot{q}_2(0).$$

$$\left.\begin{array}{l} u_1(t) \\ u_2(t) \end{array}\right\} = \begin{pmatrix} 1 \\ 1 \end{pmatrix} 0{,}3 \cos \omega_1 t + \underbrace{\cancel{0 \operatorname{sen} t}}_{0} + \begin{pmatrix} -1 \\ 1 \end{pmatrix} \underbrace{\cancel{0 \cos \omega_2 t}}_{0} + 0$$

$$\boxed{\left.\begin{array}{l} u_1(t) \\ u_2(t) \end{array}\right\} = \begin{pmatrix} 1 \\ 1 \end{pmatrix} 0{,}3 \cos \omega_1 t}$$

$\boxed{q' = 0}$??

$\left(\frac{K}{m_1}\right)$??

ESCUELA TECNICA SUPERIOR
DE INGENIEROS NAVALES

Asignatura PP4
Alumno ..... n.º
Curso ..... Grupo ..... Fecha .....

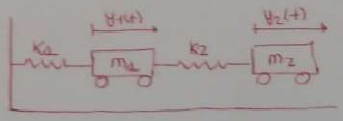

$m_1 = 35\,Kg.$ $K_1 = 8750\,N/m$
$m_2 = 17{,}5\,Kg.$ $K_2 = 3500\,N/m$

1) Obtener las matrices de rigidez y masa.

$$[m] = \begin{bmatrix} m_1 & 0 \\ 0 & m_2 \end{bmatrix} = \begin{bmatrix} 35 & 0 \\ 0 & 17{,}5 \end{bmatrix}.$$

$$[K] = \begin{bmatrix} K_1+K_2 & -K_2 \\ -K_2 & K_2 \end{bmatrix} = \begin{bmatrix} 8750+3500 & -3500 \\ -3500 & 3500 \end{bmatrix} = \begin{bmatrix} 12250 & -3500 \\ -3500 & 3500 \end{bmatrix}$$

2) Calcular las frecuencias propias y modos propios (considerar g... componente = 1).

$$\text{Det.}\,[[K]-\omega^2[m]] = 0. \quad \begin{matrix} \rightarrow \omega_1 \\ \rightarrow \omega_2. \end{matrix}$$

$$\begin{bmatrix} 12.250 - 35x^2 & -3500 \\ -3500 & 3500+(-17{,}5x^2) \end{bmatrix} = 0.$$

$x_1 - \omega_1^2 = 115.$

$\boxed{\omega_1 = \sqrt{115}\ rad/s}$

$x_2 = 435 = \omega_2^2$

$\boxed{\omega_2 = \sqrt{435}\ rad/s}$

$[K]-\omega^2[m]\,\phi_i = 0.$

$$\left.\begin{matrix} 47\phi_{11} - 2\phi_{12} = 0. \\ -20\phi_{11} + 8{,}5\phi_{12} = 0 \end{matrix}\right\} \phi_{11} = 1 \rightarrow \phi_{12} = 2{,}35.$$

$\boxed{\begin{pmatrix} 1 \\ 2{,}35 \end{pmatrix} = \phi_1}$

$\boxed{\begin{pmatrix} 1 \\ -0{,}85 \end{pmatrix} = }$

$)_0 = 1m.$
$)_0 = 0.$

$$\begin{pmatrix} u_1(t) \\ u_2(t) \end{pmatrix} = \phi_1\, q_1(t) + \phi_2\, q_2(t).$$

$t = q\,\dot{u}_1 = \dot{u}_2 = 0.$

$$= \boxed{\underbrace{\begin{pmatrix} 1 \\ 2{,}35 \end{pmatrix}}_{\phi_1} 0{,}578 \cdot \cos \underbrace{0{,}72}_{\omega_1} + 0{,}422 \underbrace{\begin{pmatrix} 1 \\ -0{,}85 \end{pmatrix}}_{\phi_2} \cdot \cos \underbrace{20{,}86}_{\omega_2} t}$$

ESCUELA TECNICA SUPERIOR
DE INGENIEROS NAVALES

Asignatura EP5
Alumno n°
Curso Grupo Fecha

Sistema masa resorte amortiguador sometido a vibración libre

$m = 100\,Kg$.

Se desplaza 2cm. ($U_0 = 2cm$) y se libera.

Se registran 20 ciclos $T = 4s$. y tiene una amplitud de 0,15cm.

Obtener "K" de rigidez y "C" amortiguamiento.

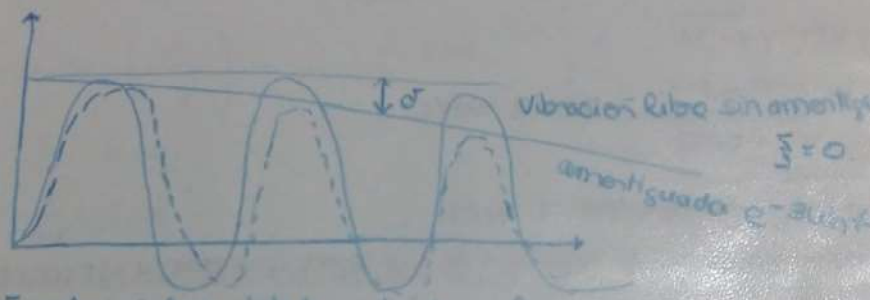

δ = relación de amplitudes entre dos ciclos

Decrecimiento logarítmico

$$\ln = \frac{U(t)}{U(t+d')} = 2\pi\xi\frac{\omega_n}{\omega_b} \rightarrow \frac{2\pi\xi}{\sqrt{1-\xi^2}} = \beta$$

$$\ln = \frac{U(1)}{U_5+1} = \delta\delta \quad \xi = \frac{c}{c_r} \quad c_{cr} = \sqrt{2km} = 2m\omega_n$$

Sabemos que

- Factor amortiguamiento : $\omega_b = \frac{2\pi}{T_0}$ rad/s.
- Frec. natural : $\omega_n = \sqrt{\frac{K}{m}}$ rad/s

$$\omega_b = \omega_n\sqrt{1-\xi}$$

En nuestro caso tenemos

$U_{21} = 0{,}15cm$ $\quad f = 20$ ciclos

$U_0 = 2cm.$ $\quad \delta = \frac{1}{20} \ln\left(\frac{2}{0{,}15}\right) = 0{,}13.$

$$\left[\zeta = \sqrt{\frac{1}{\left(\frac{2\pi}{\delta}\right)+1}} = 0{,}02\right]$$

$$\left(\begin{matrix}20 \text{ ciclos} \\ 4 \text{ seg.}\end{matrix}\right) \quad \omega_D = \frac{20 \text{ ciclos}}{4s.} \quad \frac{2\pi \text{ rad}}{1 \text{ ciclo.}} = 10\pi \text{ rad/s}$$

$$\omega_D = \omega_n \cdot \sqrt{1-\zeta^2}$$

$$\omega_n = \frac{10\pi \text{ rad/s}}{\sqrt{1-0{,}02^2}} = 31{,}42 \text{ rad/s.}$$

$$\omega_n = \sqrt{K/m} \longrightarrow K = 98{,}7 \text{ KN/m.}$$

$$C_{crit.} = 2m\omega_n = 2 \cdot (100Kg) \cdot (31{,}42) = 6284{,}4 \text{ N/cm}$$

$$\zeta = \frac{C}{C_r} \longrightarrow C = \zeta \cdot C_r = 0{,}02 \cdot 6284{,}4$$

$$= \boxed{125{,}688 \text{ N/m/s} \quad Kg/s.}$$

PP6

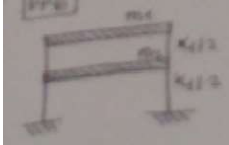

$$|M| = \begin{vmatrix} 1 & 0 \\ 0 & 1 \end{vmatrix} \quad |K| = \begin{vmatrix} 100 & -100 \\ -100 & 200 \end{vmatrix}$$

$\omega_1 = 6{,}2\ Hz$ $\quad P_1 = 1{,}17$

$\omega_2 = 6{,}2\ Hz$ $\quad P_2 = 0{,}28$

$$|\Phi| = \begin{bmatrix} 1 & -\frac{\sqrt{5}-1}{2} \\ \frac{\sqrt{5}-1}{2} & 1 \end{bmatrix}$$

1) Valores del desplazamiento máximo "U" conocido el espectro.

$U_i = P_i \cdot \Phi_i D_i$

$$U_1 = 1{,}17 \cdot \begin{pmatrix} 1 \\ \frac{\sqrt{5}-1}{2} \end{pmatrix} \cdot 6{,}5 = \begin{cases} 7{,}605 \\ 4{,}700 \end{cases}$$

$$U_2 = 0{,}28 \cdot \begin{pmatrix} -\frac{\sqrt{5}-1}{2} \\ 1 \end{pmatrix} \cdot 5{,}30 = \begin{cases} -2{,}40 \\ 1{,}484 \end{cases}$$

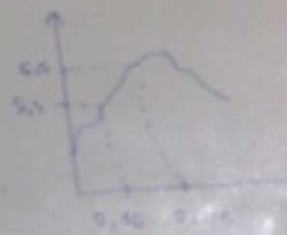

$\beta_2 = \frac{1}{\omega_2} = 0{,}06$

$\beta_1 = \frac{1}{\omega_1} = 0{,}16$

5X JUNIO 2015



Se encuentra sujeto a la carga

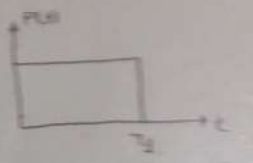

$m = 40t$

$P = 500KN$

$t_1 = 1s$

$K = 20.000\ kn/m$

$\omega_1 = 15,81\ rad/s\ (\sqrt{250})$

$\omega_2 = 31,622\ rad/s\ (\sqrt{1000})$

$\phi_1 = \begin{bmatrix} 0,0645 & 0,0913 \\ 0,1291 & -0,0913 \end{bmatrix}$

1.) Desplazamientos $U(t)$ en la fase de vibración forzada y cual tiene mas peso.

ley desplazamiento 1 GDL - $\boxed{U(t) = \frac{P_0}{K}(1-\cos\omega t)}$

$P_1 = (0,0645 \quad 0,1291)\begin{bmatrix} 500\ (N) \\ 1000\ (N_2) \end{bmatrix} = 461,35$

$P_2 = (0,0913 \quad -0,0913)\begin{bmatrix} 500 \\ 1000 \end{bmatrix} = -45,65$

$K_1 = (0,0645 \quad 0,1291)\begin{bmatrix} 3K & -K \\ -K & K \end{bmatrix}\begin{pmatrix} 0,0645 \\ 0,1291 \end{pmatrix} = 0,0125K$

$K_2 = (0,0913 \quad -0,0913)\begin{bmatrix} 3K & -K \\ -K & K \end{bmatrix}\begin{pmatrix} 0,0913 \\ -0,0913 \end{pmatrix} = 0,05K$

$q_1(t) = \frac{P_1}{K_1}(1-\cos\omega_1 t) = \frac{461,35}{0,0125K}(1-\cos 15,81\,t)$

$q_2(t) = \frac{P_2}{K_2}(1-\cos\omega_2 t) = \frac{-45,65}{0,05K}(1-\cos 31,622\,t)$

$\begin{bmatrix} U_1(t) \\ U_2(t) \end{bmatrix} = \underbrace{\begin{bmatrix} 0,0645 \\ 0,1291 \end{bmatrix}}_{\phi_1} 0,0645(1-\cos 15,81\,t) \cdot q_1 - \underbrace{\begin{bmatrix} 0,0913 \\ -0,0913 \end{bmatrix}}_{\phi_2} 0,1826(1-\cos 3 \cdot q_2$



El primer modo tiene mas importancia que el 2º modo.

2) Fuerzas estáticas equivalentes.

$f_{est} = K \cdot U$

$f_{est_1} = \omega_1^2 [m]\,\phi_1 \cdot q_1 = 15,81^2 \begin{bmatrix} 2m & 0 \\ 0 & m \end{bmatrix}\begin{bmatrix} 0,0645 \\ 0,1291 \end{bmatrix} \cdot q_1(t)$

$f_{est_2} = \omega_2^2 [m]\,\phi_2 \cdot q_2 = 31,66^2 \begin{bmatrix} 2m & 0 \\ 0 & m \end{bmatrix}\begin{bmatrix} 0,0913 \\ -0,0913 \end{bmatrix} \cdot q_2(t)$

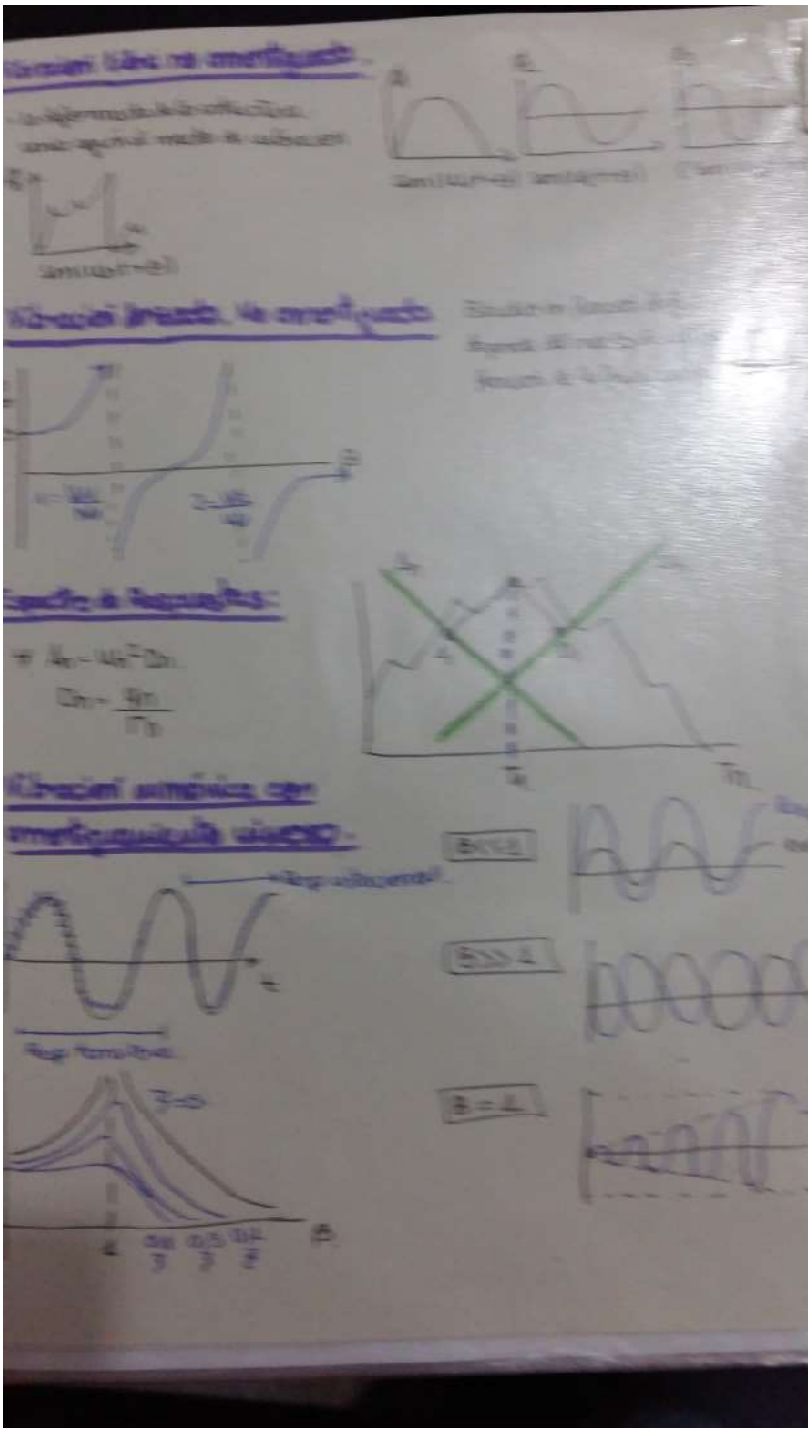

Transmisibilidad.

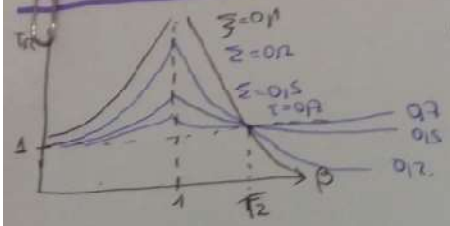

Carga impulsiva.

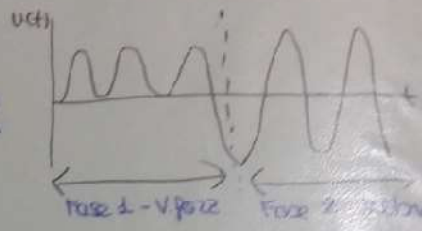

GRÁFICA RESUMEN



CRITERIO D'ALAMBERT: Todo cuerpo sometido a una fuerza genera una fuerza de inercia de sentido contrario, proporcional a la masa y a la aceleración de nuestro sistema.

ligados a las fuerzas de inercial.

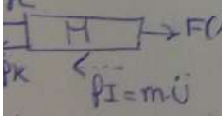

$$f_I + f_D + f_k = f_{ct.} \rightarrow m\ddot{U} + C\dot{U} + KU = f$$

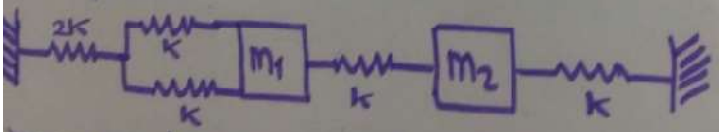

) Ec. movimiento.

Keq equivalente → $\frac{1}{K_{eq}} = \frac{1}{2K} + \frac{1}{(K+K)} = \frac{2}{2K} = K$

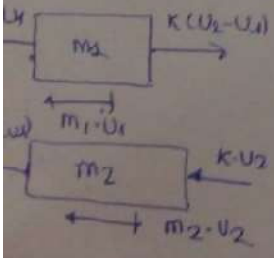

$$k(U_2 - U_1) - KU_1 = m_1 \cdot \ddot{U}_1 \qquad 2KU_1 - KU_2 - m_1 \cdot \ddot{U}_1 =$$

$$-k(U_2) - K(U_2 - U_1) = m_2 \cdot \ddot{U}_2 \qquad -2KU_2 + KU_1 = m$$

$$[m]\{\ddot{U}\} + [K]\{U\} = 0$$

$$m_1\ddot{U}_1 \; 2KU_1 - KU_2 = 0$$

$$m_2\ddot{U}_2 \; KU_1 - 2KU_2 = 0$$

$$[K] = \begin{bmatrix} 2K & -K \\ K & 2K \end{bmatrix}$$

$$[M] = \begin{bmatrix} m_1 & 0 \\ 0 & m_2 \end{bmatrix}$$

3'2 + 0'6 + 0'5 = 4'3.

Escuela Técnica Superior de Ingenieros Navales. Universidad Politécnica de Madrid

Curso 2015-2016 DINÁMICA DE ESTRUCTURAS (Final) 22_06_2016

EJERCICIOS PRÁCTICOS: Tiempo **1h 15** minutos

PP1 (2p)

La estructura de la figura dispone de una plataforma considerada infinitamente rígida y con masa M. Todas las columnas tienen el mismo valor de EI= 6000 kN.m², y el valor de la altura H es de 4.7m. Se solicita:

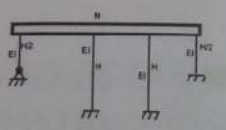

1.-(0.4p)Calcular la rigidez equivalente

2.- (0.8p)Obtener el valor máximo de M para que la amplitud de desplazamiento en cabeza no supere 50 mm, sabiendo que en condición de vibración libre u(0s)= 0.04 m y $\dot{u}$(0s) =50 cm/s

3.- (0.8p)Si hay un movimiento armónico de base, tipo u(t) =0.08. sen (35 t) en m, se pide obtener el valor del factor de Transmisibilidad y el desplazamiento máximo y compararlo con el máximo de excitación.

PP2 (2.4p)

La estructura mostrada a continuación tiene las siguientes características

$$[K] = k\begin{bmatrix} 2 & -1 & 0 \\ -1 & 2 & -1 \\ 0 & -1 & 1 \end{bmatrix}, \quad [M] = m\begin{bmatrix} 1 & 0 & 0 \\ 0 & 1 & 0 \\ 0 & 0 & 0.5 \end{bmatrix}, \quad [\Phi] = \begin{bmatrix} 0.5 & -1 & 0.5 \\ 0.866 & 0 & -0.866 \\ 1 & 1 & 1 \end{bmatrix}$$

, w_1= (0.268 k/m)^0.5,

w_2= (2k/m)^0.5, w3= (3.73k/m)^0.5. Se pide:

1.- (1.2p)Calcular los desplazamientos de cada plataforma cuando queda sujeta la masa del tercer nivel a una fuerza de excitación armónica, generada por un equipo rotativo, y de valor $p(t) = P_o.\text{sen } wt$.

2.- (1.2p)Si en lugar de la excitación anterior, en cierto momento se aplica una fuerza impulsiva en el primer nivel según la figura siguiente, calcular la ley de desplazamientos durante la fase de vibración forzada por Análisis Modal.

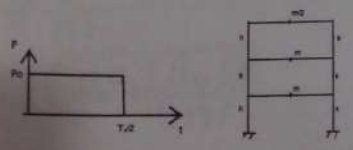

PP3(1.2p)

Para un sistema amortiguado, se ha comprobado que al desplazarlo de su posición de equilibrio 10mm y tras transcurrir 5.5 s y 20 ciclos, el sistema mantiene una amplitud de 0.11 cm. Si el amortiguamiento "c" = 92.5 N.s/m, se pide calcular la masa del sistema.

PP4(1.4p)

Una estructura de 2 grados de libertad dispone de la siguiente matriz de rigidez

$$K = k\begin{bmatrix} 5/4 & -1 \\ -1 & 1 \end{bmatrix}$$

y se conoce el primer modo propio $\phi_1^T = (0.919 \quad 1)$.

1.- (0.55p)Justificar cuál sería el segundo modo entre los siguientes:

$\phi_{2a}^T = (-0.544 \quad 1)$, $\phi_{2b}^T = (1.24 \quad -1)$, $\phi_{2c}^T = (1 \quad 1.5)$, $\phi_{2d}^T = (0.244 \quad 1)$

2.- (0.85p)Calcular la ley de desplazamientos en vibración libre, sabiendo que $u(0s) = (1 \quad 2)^T$, $\dot{u}(0s) = (0 \quad 0)^T$, y la matriz de masas

$$M = m\begin{bmatrix} 1 & 0 \\ 0 & 0.5 \end{bmatrix}$$

$$\Phi = \begin{pmatrix} 0,919 & 1 \\ 1 & 1,5 \end{pmatrix}$$

Escuela Técnica Superior de Ingenieros Navales. Universidad Politécnica de Madrid

Curso 2015-2016 **DINÁMICA DE ESTRUCTURAS (Final) 23_09_2016**

EJERCICIOS TEÓRICOS: Tiempo **20** minutos

PT1 (1p): Para el sistema de la siguiente figura, se pide obtener la ecuación de movimiento, matriz de rigidez y de masas por D'Alembert

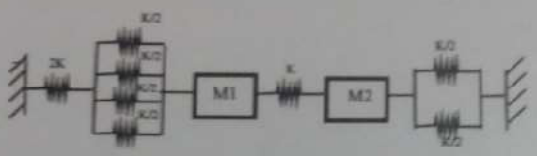

PT2 Seleccionar cuál de las siguientes afirmaciones es la correcta en cada situación:

1) (0.2p) Una estructura "A" que tenga una frecuencia de vibración mayor que otra "B"
   a. Tiene período propio mayor y desplazamiento mayor que la "B"
   b. A igualdad de masa M, es menos rígida la estructura "A" que la "B"
   c. A igualdad de masa M y tipo de material, la estructura "A" tendrá una inercia mayor que la "B"

2) (0.2p) En un sistema sobreamortiguado, la respuesta del sistema si se saca de su posición de equilibrio y dejarlo libre:
   a. Tiene como respuesta una vibración con amplitud decreciente
   b. No vibra, vuelve a su posición de equilibrio lentamente
   c. No vibra y vuelve a su posición de equilibrio más rápidamente que en el caso de amortiguamiento crítico

3) (0.2p) Una estructura en condiciones de vibración libre amortiguada con razón de amortiguamiento menor que 1, la frecuencia propia de amortiguamiento Wd es
   a. Mayor que Wn (frecuencia propia circular)
   b. Menor que Wn
   c. Independiente de Wn.

4) (0.2p) El Período propio de una estructura depende de:
   a. Masa (M) y Rigidez (K)
   b. Masa (M) y aceleración (ü)
   c. Rigidez (K) y velocidad ($\dot{u}$)

PT3 (0.7p) Para un sistema amortiguado se pide explicar de forma justificada:

- Cuando queda sometido a movimiento de base armónico, ¿cuál es el efecto del amortiguamiento en la fuerza transmitida al sistema? Explicar el efecto de variai W/W_n
- Ante una fuerza de excitación armónica con $W/W_n << 1$, explicar cuál es el parámetro más importante que afecta a la amplitud de respuesta del sistema
- Indicar el efecto del amortiguamiento cuando $W/W_n >> 1$ y cuando $W/W_n << 1$. Justificar gráficamente.

Escuela Técnica Superior de Ingenieros Navales. Universidad Politécnica de Madrid

Curso 2015-2016 **DINÁMICA DE ESTRUCTURAS (Final) 23_09_2016**

EJERCICIOS PRÁCTICOS: Tiempo **1h 15** minutos

PP1 (2.8p)

Del siguiente sistema se conoce que la masa de la plataforma es de 19 t y se considera infinitamente rígida. Tras separarla de su posición de equilibrio y conociendo que:

ξ = 0.25; EI= 6000 kN.m^2; k= 1000 kN/m

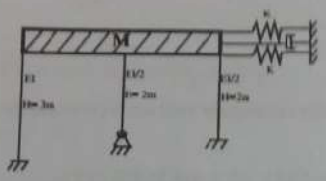

Se solicita:

1.- (0.9p) Calcular la frecuencia de vibración amortiguada

2.- (1p) Si en t=0s, las condiciones iniciales son u(0s)= 300 mm y velocidad inicial nula, obtener la amplitud, desfase y desplazamiento en t=0.8 s

3.- (0.9p) Obtener el número de ciclos que deben transcurrir para obtener una reducción del 40% respecto a la amplitud inicial

PP2 (2.8p)

En una fragata se produce una explosión cercana al local de equipos de control. En este local existe un equipo de medida apoyado sobre un polín con rigidez 40 kN/m y masa 150 kg. La explosión queda definida por el siguiente espectro de fuerza

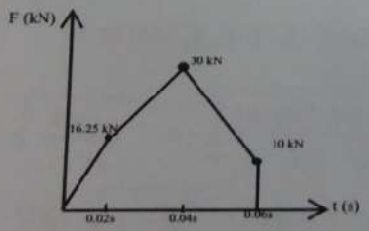

Se pide:

1.- (0.9p) Obtener el desplazamiento máximo de la estructura de soporte (asumir que el polín no tiene masa propia). Justificar decisiones.

2.- (1.1p) Para el buen funcionamiento del equipo, la deformación máxima no debe superar los 200 mm. Justificar qué opción sería más efectiva:

a) aumentar la masa hasta 700 kg

b) aumentar la rigidez del polín hasta 100 kN/m

3.- (0.8p) Si la carga impulsiva fuera del siguiente tipo, justificar el valor de F para que el desplazamiento máximo en la fase de vibración libre no supere los 200 mm

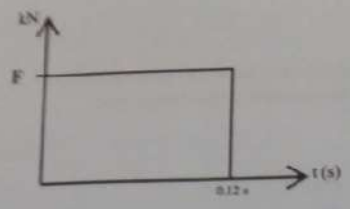

PP3 (1.9p)

La estructura de la figura queda sujeta a la carga rectangular indicada a continuación. Se conocen los siguientes datos

m= 40 t, p= 500 kN, t_1= 1s, k= 20000kN/m, w_1= 15.81 rad/s; w_2= 31,622 rad/s;

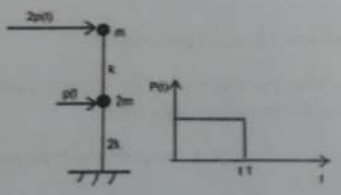

$$|\phi = \begin{bmatrix} 0.0645 & 0.0913 \\ 0.1291 & -0.0913 \end{bmatrix}$$

$$[K] = \begin{bmatrix} 3K & -K \\ -K & K \end{bmatrix}$$

Se solicita:

1.- (1p) En la fase de vibración forzada, obtener mediante análisis modal, la ley de desplazamientos u(t). Justificar la importancia de cada modo en el resultado final

2.- (0.9p) Obtener las fuerzas estáticas equivalentes.

Asignatura PP1 (Sept. 2016)
Alumno ..... n.º .....
Curso ..... Grupo ..... Fecha .....

ESCUELA TECNICA SUPERIOR
DE INGENIEROS NAVALES

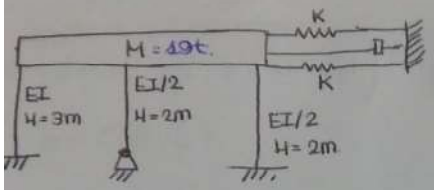

$\zeta = 0{,}25$
$EI = 6000\ KN \cdot m^2$
$K = 1.000\ KN/m$

1) Frecuencia vibración amortiguada.

$K_{eq} = K_1 + K_2 + K_3$

$K_1 = \frac{12EI}{3^3} = \frac{12 \cdot 6.000 \cdot 10^3}{27} = 2666666{,}67\ KN/m$

$K_2 = \frac{3 \cdot \frac{EI}{2}}{2^3} = \frac{3 \cdot 3000}{8} = 1.125\ KN/m$

$K_3 = \frac{12\ \frac{EI}{2}}{2^3} = 4.500\ Kn/m.$

$K_{eq} = 2666{,}67 + 1.125 + 4.500 = 8291{,}67\ Kn/m.$

$K_{eq} = 8291{,}67\ Kn/m + K_4 + K_5$

$= 8291{,}67 + 1.000 + 1.000 = \boxed{10.291{,}67\ Kn/m}$

$\omega_1 = \sqrt{\frac{K_{eq}}{m}} = \sqrt{\frac{10.291{,}67 \cdot 10^3}{10 \cdot 10^3}} = \sqrt{\frac{10.291{,}67}{10}} = 23{,}27\ rad$

$\omega_0 = \omega_1 \cdot \sqrt{1 - \zeta^2} = 23{,}27 \cdot \sqrt{1 - 0{,}25^2} = \boxed{22{,}53\ rad/s}$

2). $t=0s$. $u(0s) = 300\,mm$.
$v(t=0s) = 2\,m/s$.

Obtener amplitud, desfase y desplazamiento en $t = 0,8\,s$

$$\rho = \sqrt{0,3^2 + \left(\frac{2 \cdot 0,25 \cdot 23,27 \cdot 0,3}{22,53}\right)^2} = 0,3376\,m = 337,64\,mm.$$

$$\theta = tg^{-1}\left(\frac{2 \cdot 0,3 \cdot 0,25 \cdot 23,27}{22,53 \cdot 0,3}\right) = tg^{-1}(0,5541) = tg^{-1}\,31,73° = 1,385\,rad$$

$$u(t) = e^{-\beta \omega_n t} \cos(\omega_d t - \theta)$$

$$= e^{-0,25 \cdot 22,53 \cdot 0,8} \cdot \cos(22,53 \cdot 0,8 - 1,385)$$

$$= 0,01404 \cdot 0,337 \cdot (-0,604) = 2,247 \cdot 10^{-3}\,m.$$

2,247 mm

) Número de ciclos que deben de transcurrir para obtener una amplitud del 40% respecto a la original.

$$\frac{u_1}{u_{j+1}} = \frac{u_1}{u_2}\frac{u_2}{u_3} \cdots \frac{u_j}{} = e^{j\delta}$$

$$\ln\frac{u_1}{u_{j+1}} = j\delta \longrightarrow \frac{1}{j\,40\%} \ln\frac{u_1}{u_{j+1}} = 2\pi\zeta$$

$$j\,40\% = \frac{\ln u_1/u_{j+1}}{2\pi\zeta} = \frac{\ln \frac{1}{0,4}}{2\pi \cdot \zeta} = \frac{0,916291}{2\pi \cdot 0,25} = 0,5833.$$

(1 → amplitud original)

ciclo 0,5833.

Asignatura PP2 SEPT. 16
Alumno ..... n.º .....
Curso ..... Grupo ..... Fecha .....

ESCUELA TECNICA SUPERIOR
DE INGENIEROS NAVALES

Equipo de medida sobre un pelín de $K = 40\ kN/m$.
$m = 150\ kg$.

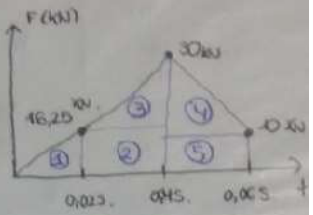

Sobre un desplazamiento máximo de la estructura de soporte.
Asumir que el pelín no tiene masa propia.

$$\frac{t_d}{T_n} = \frac{0,06}{T_n}$$

$$T_n = \frac{2\pi}{\omega_n} \longrightarrow \omega_n = \sqrt{\frac{K}{m}} = \sqrt{\frac{40.10^3}{150}} = 16,33\ rad/s$$

$$T_n = \frac{2\pi}{16,33} = 0,385\ s.$$

$$\frac{t_d}{T_n} = \frac{0,06}{0,385} = 0,1559\ s. < 0,25 \longrightarrow \text{No se cumple}$$

$$\int F(t)\,dt = A_1 + A_2 + A_3 + A_4 + A_5$$

$$= \frac{0,02 \cdot 16,25}{2} + 0,02 \cdot 16,25 + \frac{0,02 \cdot (30 - 16,25)}{2} + \frac{0,02 \cdot 20}{2}$$

$$= 0,1625 + 0,325 + 0,1375 + 0,2 + 0,2$$

$$= 1,025\ N/s.$$

$$\frac{I}{m\omega_n} = \frac{I}{K} \cdot \frac{2\pi}{T_n} = \frac{1,025 \cdot 2\pi}{40 \cdot 0,385} = 0,418\ m.$$

2) Para el buen funcionamiento, la deformación $\leq 200\,mm$.

OPCIÓN A. aumentar la masa hasta 700 kg.

$$\frac{t_1}{t_n} = \frac{0,06}{t_n} \qquad t_n = \frac{2\pi}{\omega_n}$$

$$\omega_n' = \sqrt{K/m} = \sqrt{\frac{40.000}{700}} = 7,56\ rad/s$$

$$t_n = \frac{2\pi}{\omega_n} = \frac{2\pi}{7,56} = 0,831\ s$$

$$\frac{t_1}{t_n} = \frac{0,06}{0,831} = 0,072 < 0,25.$$ Pulso corto

$$M_0 = \frac{I}{m \cdot \omega_n} = \frac{I}{K} \cdot \frac{2\pi}{T_n} = \frac{1,025}{40} \cdot \frac{2\pi}{0,831} = \frac{6,44}{[illegible]} = 0,$$

OPCIÓN B. aumentar la rigidez del pelín hasta 100 kN.

$$\frac{t_1}{t_n} = \frac{0,06}{t_n} \qquad t_n = \frac{2\pi}{\omega_n}$$

$$\omega_n'' = \sqrt{\frac{100.000}{150}} = 25,82\ rad/s.$$

$$t_n = \frac{2\pi}{\omega_n} = \frac{2\pi}{25,82} = 0,243 < 0,25$$ pulso corto

$$U_0 = \frac{I}{m \cdot \omega_n} = \frac{I}{K} \cdot \frac{2\pi}{T_n} = \frac{1,025}{100} \cdot \frac{2\pi}{0,243} = \frac{6,44}{24,3} = 0,$$

Nos pasamos de 200mm. de deformación luego no nos vale OPCIÓN A la más correcta.

Si hubiera una carga impulsiva del siguiente tipo calcular F para que el desplazamiento en la fase de vibración libre $\leq 200\,mm$.

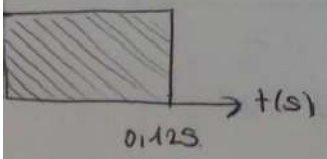

$$\frac{U_0}{U_s t} = 2 \cdot \operatorname{sen} \frac{\pi t_1}{T_n} \rightarrow U_0 = \frac{2P_0}{k} \cdot \operatorname{sen} \frac{\pi t_1}{t_n}$$

$$\frac{0,2 \cdot 40.000}{2 \cdot \operatorname{sen} \pi \frac{t_1}{t_n}} = P_0.$$

$$P_0 = \frac{0,2 \cdot 40.000.}{2 \cdot \operatorname{sen} \pi \cdot \frac{0,12}{0,385}} = 4818,99\ N. = \boxed{4,}$$

Asignatura [illegible]
Alumno
Curso ..... Grupo ..... Fecha

ESCUELA TECNICA SUPERIOR
DE INGENIEROS NAVALES



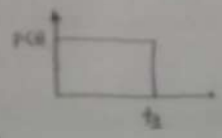

$$[K] = \begin{bmatrix} 3K & -K \\ -K & K \end{bmatrix}$$

$$\Phi = \begin{bmatrix} 0{,}0645 & 0{,}0913 \\ 0{,}1291 & -0{,}0913 \end{bmatrix}$$

$m = 40t$ $\quad K = 20.000$ kN/m

$p = 500$ kN $\quad \omega_1 = 15{,}81$ rad/s

$t_1 = 1$ s $\quad \omega_2 = 31{,}622$ rad/s

1.) En vibración forzada, obtenga por análisis modal, [illegible]

$$u(t) = \frac{P_0}{K}(1 - \cos\omega t)$$

$$P_1 = (0{,}0645 \quad 0{,}1291) \begin{bmatrix} 500 \\ 1000 \end{bmatrix} = 161{,}35$$

$$P_2 = (0{,}0913 \quad -0{,}0913) \cdot \begin{bmatrix} 500 \\ 1000 \end{bmatrix} = -45{,}65$$

$$K_1 = (0{,}0645 \quad 0{,}1291) \begin{bmatrix} 3K & -K \\ -K & K \end{bmatrix} \cdot \begin{pmatrix} 0{,}0645 \\ 0{,}1291 \end{pmatrix} = 0{,}0125K$$

$$K_2 = (0{,}0913 \quad -0{,}0913) \begin{bmatrix} 3K & -K \\ -K & K \end{bmatrix} \cdot \begin{pmatrix} 0{,}0913 \\ -0{,}0913 \end{pmatrix} = 0{,}05K$$

$$q_1(t) = \frac{P_1}{K_1}(1 - \cos\omega_1 t) = \frac{161{,}35}{0{,}0125K} \cdot (1 - \cos(15{,}81t))$$

$$q_2(t) = \frac{P_2}{K_2}(1 - \cos\omega_2 t) = \frac{-45{,}65}{0{,}05K} \cdot (1 - \cos(31{,}622t))$$

$$\begin{Bmatrix} u_1(t) \\ u_2(t) \end{Bmatrix} = \begin{Bmatrix} 0{,}0645 \\ 0{,}1291 \end{Bmatrix} 0{,}0454 \cdot (1 - \cos 15{,}81t) - \begin{Bmatrix} 0{,}0913 \\ -0{,}0913 \end{Bmatrix} 0{,}0456$$

El primer modo tiene más importancia que el 2º modo



2) Obtenemos las fuerzas estáticas equivalentes

$$f_{est_1} = \omega_1^2 [M] \cdot \phi_1 \cdot q_1$$

$$= 15{,}81^2 \cdot \begin{bmatrix} 2m & 0 \\ 0 & m \end{bmatrix} \cdot \begin{bmatrix} 0{,}0695 \\ 0{,}1201 \end{bmatrix} \cdot q_1(t)$$

$$=$$

$$f_{est_2} = \omega_2^2 [M] \cdot \phi_2 \cdot q_2$$

$$= 31{,}622^2 \cdot \begin{bmatrix} 2m & 0 \\ 0 & m \end{bmatrix} \begin{bmatrix} 0{,}0913 \\ -0{,}0913 \end{bmatrix} \cdot q_2(t)$$

Escuela Técnica Superior de Ingenieros Navales. Universidad Politécnica de Madrid

Curso 2015-2016 DINÁMICA DE ESTRUCTURAS (Final) 22_06_2016

EJERCICIOS TEÓRICOS: Tiempo 25 minutos

PT1 (1.3p)

Obtener las matrices de masa [M] y rigidez [K] del siguiente sistema representado en la figura, mediante la técnica de los coeficientes de influencia. Justificar y apoyar con gráficos.



PT2 (0.6p)

Dado un sistema amortiguado sometido a vibración libre, indicar [illegible] obtiene cuando $\xi < 1$. ¿Qué efecto tendrá reducir el parámetro ξ?. Justificar y mostrar el efecto mediante representación gráfica.

PT3 (1.1p)

1.- (0.5p) Justificar cuál de los siguientes sistemas, ante un movimiento de base, entrará antes en resonancia. ($\omega_n = \omega_k$)

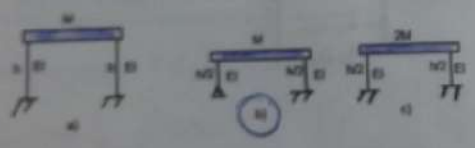

2.- (0.35p) Si al sistema b) se incorpora un amortiguamiento "c" y la $W_{excit} > W_{propia}$, ¿la fuer[illegible] transmitida es siempre menor que en la situación de origen?. Justificar gráficamente

3.- (0.25p) Si cuando W_{excit} es aprox = W_{propia} se aumenta la razón de amort ξ, ¿Cuál será la respuesta?



PT3. Formular la ecuación de movimiento para el sistema amortiguado siguie

- utilizando el método d'Alembert

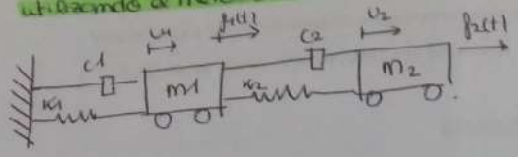

PT2. sistema sujeto a vibración libre. ¿cual sería el efecto de aumentar el valor de ζ cuando el sistema tiene una razón de amortiguamiento ζ>1

b) Para un sistema sometido a excitación armónica con ω/ωn >>> 1 justifican y explican cual es el parámetro mas efectivo & modifican si los resultados no son aceptables

c) En una estructura amortiguada sometida a movimiento de la ... indican si la fuerza transmitida aumenta, disminuye o no ... ningun efecto al aumentar la razón de amortiguamiento.

P3

Calcular la rigidez equivalente del siguiente sistema

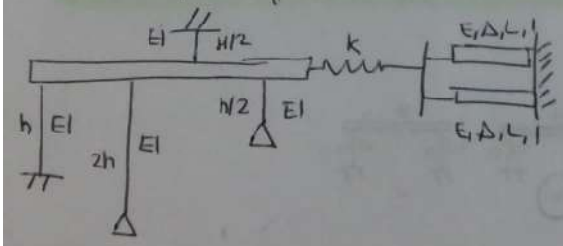

ESCUELA TECNICA SUPERIOR
DE INGENIEROS NAVALES

Asignatura .....
Alumno ..... n.º .....
Curso .....Grupo ..... Fecha .....

PT1 Formulación la ecuación de movimiento para el sistema amortiguado siguiente utilizando el método d'Alembert

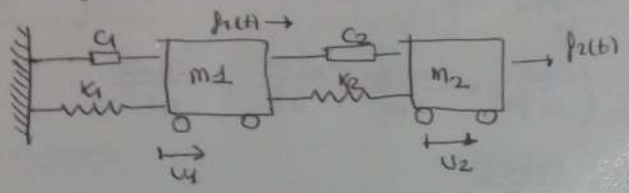

Equilibrio de fuerzas

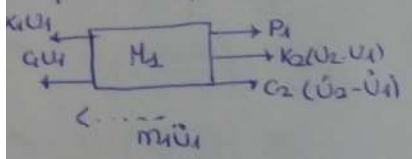

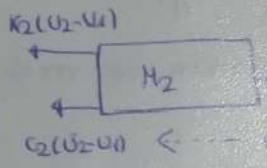

- $m_1\ddot{U}_1 + (C_1+C_2)\dot{U}_1 - C_2\dot{U}_2 + (K_1+K_2)U_1 - K_2U_2 = P_1$
- $m_2\ddot{U}_2 + C_2\dot{U}_2 - C_2\dot{U}_1 + K_2U_2 - K_2U_1 = P_2$.

$$\begin{bmatrix} m_1 & 0 \\ 0 & m_2 \end{bmatrix} = [m] \quad \begin{bmatrix} C_1+C_2 & -C_2 \\ -C_2 & C_2 \end{bmatrix} = [C] \quad \begin{bmatrix} K_1+K_2 & -K_2 \\ -K_2 & K_2 \end{bmatrix}$$

$$\boxed{m\ddot{U} + C\dot{U} + 3KU = F(t).}$$

Frecuencias propias: $|k - w^2 m| = 0$.

$$\left| \begin{bmatrix} K_1+K_2 & -K_2 \\ -K_2 & K_2 \end{bmatrix} - \begin{bmatrix} w^2m & 0 \\ 0 & w^2m \end{bmatrix} \right| = 0 \rightarrow \left| \begin{bmatrix} 2k-w^2m & -k \\ -k & 2k-w^2m \end{bmatrix} \right.$$

Resolviendo. $w_1^2 = \frac{3K}{m}$ $\Big\}$ $w_1 = \sqrt{\frac{3k}{m}}$

$w_2^2 = \frac{k}{m}$ $\Big\}$ $w_2 = \sqrt{k/m}$.

PT3 ¿Qué sistema entrará antes en resonancia? Wexc.

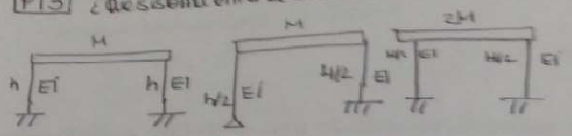

$K_{eq\,1} = 2 \cdot \left(\frac{12EI}{H^3}\right) = \frac{24EI}{H^3}$

$K_{eq.\,2} = \left(\frac{3EI}{(H/2)^3}\right) + \left(\frac{12EI}{(H/2)^3}\right) = \frac{24EI}{H^3} + \frac{96EI}{H^3} = \frac{120EI}{H^3}$

$K_{eq\,3} = 2 \cdot \left(\frac{12EI}{(H/2)^3}\right) = \frac{192EI}{H^3}$

El sistema que antes entrará en resonancia

Si al sistema b) se incorpora un amortiguamiento "c" y la [illegible]
¿La fuerza transmitida es siempre menor que en la situa

Si cuando Wexcit = Wpropio, y aumentamos ζ = cual será la re



Teoría Junio 2016.

PT1

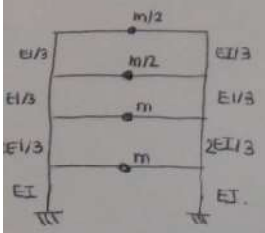

· Obtener las matrices de masa [M] y [K] mediante los coef. de influencia. Justificar y explicar con gráficos.

$$\begin{matrix} m_1 = m \\ m_2 = m \\ m_3 = m/2 \\ m_4 = m/2 \end{matrix} \Bigg] \quad [M] = \begin{bmatrix} m_1 & 0 & 0 & 0 \\ 0 & m_2 & 0 & 0 \\ 0 & 0 & m_3 & 0 \\ 0 & 0 & 0 & m_4 \end{bmatrix} = \begin{bmatrix} m & & & \\ & m & & \\ & & m/2 & \\ & & & m/2 \end{bmatrix}$$

Matriz de masas

Matriz de rigidez

$$K_1 = 2 \cdot \left(\frac{12EI}{h^3} \right) = \frac{24EI}{h^3}$$

$$K_2 = 2 \cdot \left(\frac{12(2EI)}{h^3 \cdot 3} \right) = \frac{16EI}{h^3}$$

$$K_3 = 2 \cdot \left(\frac{12EI}{3h^3} \right) = \frac{8EI}{h^3}$$

$$K_4 = 2 \cdot \left(\frac{12EI}{3h^3} \right) = \frac{8EI}{h^3}$$

Matriz K

$$K = \begin{bmatrix} K_1+K_2 & -K_1 & 0 & 0 \\ -K_1 & K_2+K_3 & -K_2 & 0 \\ 0 & -K_2 & K_3+K_4 & -K_3 \\ 0 & 0 & -K_3 & K_4 \end{bmatrix}$$

Escuela Técnica Superior de Ingenieros Navales. Universidad Politécnica de Madrid

Curso 2014-2015 DINÁMICA DE ESTRUCTURAS (Examen Final Junio) 26_06_2015

PARTE TEÓRICA: BLOQUE 1º (Nota sobre total: 3/20)

PT1. (1.5p)-Definir la ecuación de movimiento y la rigidez equivalente del siguiente sistema. Considerar la masa concentrada en la plataforma, que se asume rígida.

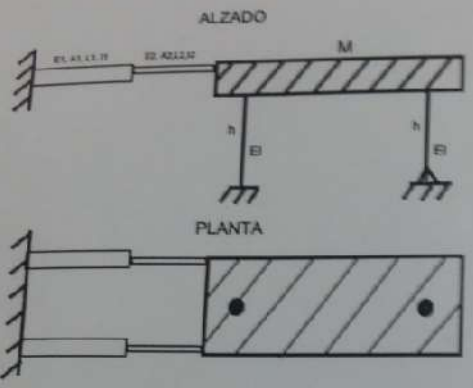

PT2.- En un sistema amortiguado sometido a vibración armónica, explicar (también gráficamente):

1) (0.5p) Efecto del amortiguamiento cuando $W/W_n << 1$; $W/W_n >> 1$; $W/W_n = 1$

2) (0.5p) Parámetro más importante que afecta a la amplitud de respuesta cuando $W/W_n << 1$

3) (0.5p) Ante movimiento de base armónico, explicar el efecto del amortiguamiento en la fuerza transmitida al sistema (explicar en función de la relación W/W_n).

2 JUNIO 2015

PT1

BLOQUE 1 PARTE ESCRITA

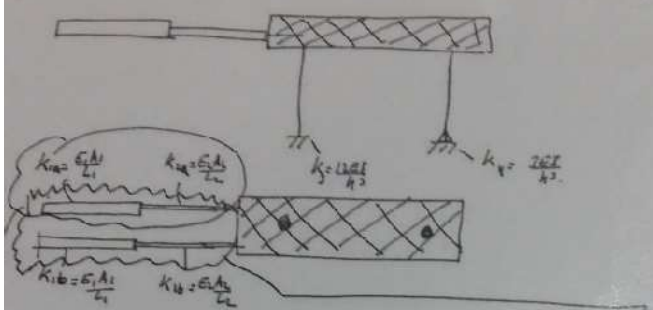

$$\frac{1}{k_{eq}} = \frac{1}{\frac{E_1A_1}{L_1}} + \frac{1}{\frac{E_2A_2}{L_2}} = \frac{\frac{E_2A_2}{L_2} + \frac{E_1A_1}{L_1}}{\frac{E_1A_1}{L_1} \cdot \frac{E_2A_2}{L_2}} \Rightarrow k_{eq} = \frac{E_1A_1E_2A_2}{4L_2\left(\frac{E_2A_2}{L_2} + \frac{E_1A_1}{L_1}\right)}$$

EN PARALELO

$$k'_{eq} = 2k_{eq} = \frac{2E_1A_1E_2A_2}{4L_2\left(\frac{E_2A_2}{L_2} + \frac{E_1A_1}{L_1}\right)}$$

$$\text{TOTAL} \rightarrow \underbrace{k'_{eq}}_{\text{PARALELO}} + k_3 + k_4 = \frac{2E_1A_1E_2A_2}{4L_2\left(\frac{E_2A_2}{L_2} + \frac{E_1A_1}{L_1}\right)} + \frac{12EI}{h^3} + \frac{3EI}{h^3}$$

PT2

1)



Zona $w \simeq 1$ → SÍ INFLUYE el cambio de ζ. A mayor ζ menor depth.

$w \ll 1$ poca influencia al cambio de ζ

$w \gg 1$ → poca influencia de cambio de ζ

2) Parámetro fundamental ⇒ "k" rígidez

3)

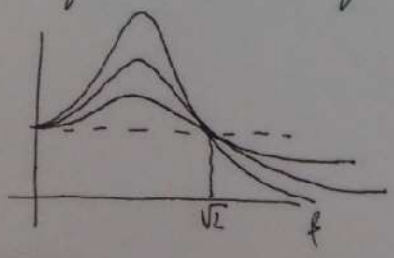

1) Si $\frac{w}{w_n} > \sqrt{2}$ → a mayor razón amortig → Fuerza transmitida

2) Si $\frac{w}{w_n} < \sqrt{2}$ → a mayor razón amortig → → menor Fuerza transmitida.

Escuela Técnica Superior de Ingenieros Navales. Universidad Politécnica de Madrid

Curso 2014-2015 DINÁMICA DE ESTRUCTURAS (Examen Final Junio) 26_06_2015

EJERCICIOS PRÁCTICOS: BLOQUE 1º (Nota sobre total: 7/20)

PP1.- Una máquina con masa 330 kg se encuentra conectada a una pared rígida según la figura. Si la máquina está sometida a una fuerza F(t) armónica de amplitud máxima 20 kN y frecuencia 1 Hz, se pide:

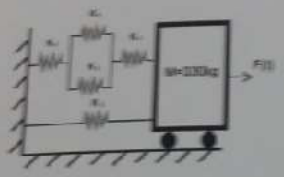

1) (1.3p) Obtener K_o para que el desplazamiento máximo en operación no supere [illegible]
2) (0.7p) Calcular la fuerza transmitida a la pared

PP2.- Un objeto de masa M= 10 kg está suspendido como en la figura. Se pide:

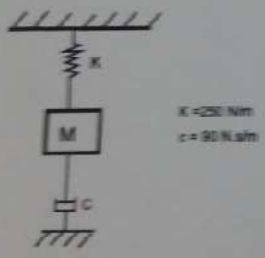

1) (0.5p) Calcular el coeficiente de amortiguamiento crítico
2) (0.6p)La frecuencia propia y razón de amortiguamiento
3) (0.9p)Deducir cuántos ciclos pasarán para reducir la amplitud hasta el 40% de la amplitud inicial

Escuela Técnica Superior de Ingenieros Navales. Universidad Politécnica de Madrid

Curso 2014-2015 **DINÁMICA DE ESTRUCTURAS (Examen Final Junio) 26_06_2015**

PP3.- Una torre como la de la figura, con una masa concentrada en la parte superior queda expuesta a una carga impulsiva como la indicada en la figura. Conociendo que la frecuencia propia es de 0.5 s y la rigidez es 500 kN/m, Se pide calcular:

1) (1.5p) La fuerza cortante y momento flector en la base
2) (1.5p) Si el momento flector supera el valor admisible, justificar qué opción será mejor: a) aumentar la masa un 10%, o b) aumentar la rigidez un 15%.

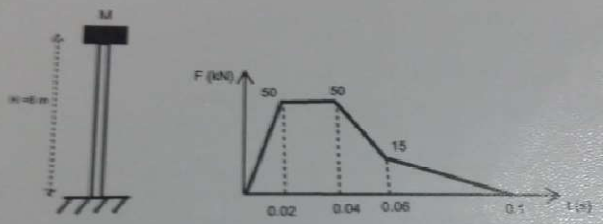

Escuela Técnica Superior de Ingenieros Navales. Universidad Politécnica de Madrid

Curso 2014-2015 DINÁMICA DE ESTRUCTURAS (Examen Final Junio) 26_06_2015

EJERCICIOS PRÁCTICOS: BLOQUE 2º (Nota sobre total: 10/20)

PP1.- Para la estructura de la figura se conocen los siguientes datos

$$K = \frac{12EI}{L^3}\begin{bmatrix} 8 & -7 \\ -7 & 8 \end{bmatrix} \qquad M = \frac{mL}{3}\begin{bmatrix} 1 & 0 \\ 0 & 1 \end{bmatrix}$$

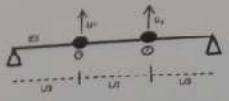

1) (2p) Obtener las frecuencias propias.

2) (2p) Obtener, por análisis modal, los desplazamientos cuando existe una carga en nodo 1: P_1= 100 sen 25 t. Los modos propios son conocidos ϕ_1^T=(1 1), ϕ_2^T=(1 -1).

3) (2p) Obtener la ley de desplazamientos, considerando razones de amortiguamiento del 10% en el sistema. Resolver considerando que W_1= 10 rad/s, W_2=38.7 rad/s, EI/L^3=0.89

PP2.-Un sistema con ζ= 5% está definido por los siguientes parámetros. Si se encuentra sometido a un movimiento de base cuyo espectro viene indicado en la figura de más abajo, se pide:

$$K = \begin{bmatrix} 100 & -100 \\ -100 & 200 \end{bmatrix} \text{kg/s}^2 \qquad M = \begin{bmatrix} 1 & 0 \\ 0 & 1 \end{bmatrix} \text{kg}$$

T_1= 1.02s; T_2= 0.39s;

$$\phi = \begin{bmatrix} 1 & -0.618 \\ 0.618 & 1 \end{bmatrix}$$

Γ_1 = 1.17 Γ_2 = 0.28 ; altura de cada columna h=2m

1) (0.3p) Ecuación de movimiento, teniendo en cuenta los parámetros arriba definidos

2) (2p) Obtener los desplazamientos máximos "u" en base al espectro de más abajo. Mostrar gráficamente el resultado debido a cada modo.

3) (1.7p) Obtener el valor de la fuerza cortante en la base debido a cada modo

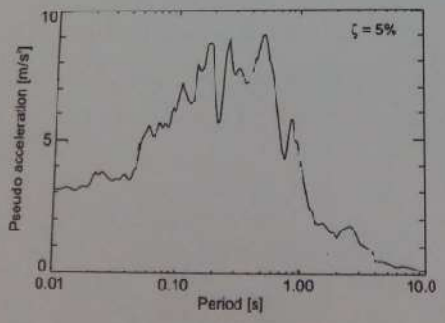

BLOQUE 1

55'

26/JUNIO/2015

PP1

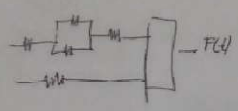

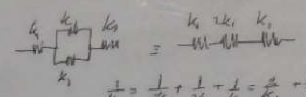

$$\frac{1}{k_{eq}} = \frac{1}{k_1} + \frac{1}{2k_1} + \frac{1}{k_1} = \frac{2}{k_1} + \frac{1}{2k_1} = \frac{4+1}{2k_1}$$

$$\boxed{k_{eq} = \frac{2k_1}{5}}$$

1)

$$\boxed{k'_{eq} = \frac{2k_1}{5} + k_1 = \frac{7k_1}{5}}$$

$$\omega_1 = \sqrt{\frac{k'_{eq}}{m}} \rightarrow \omega_1^2 = \frac{k'_{eq}}{m} \rightarrow \omega_1^2 m = k'_{eq} \Rightarrow \omega_1^2 \cdot 330 = \frac{7k_1}{5}$$

$$\omega_{exc} = 2\pi f = 2\pi \cdot 1\,Hz = 2\pi\,rad/s$$

$$u_{máx} = u_{st} \cdot D = \frac{P_0}{k}\frac{1}{(1-\beta^2)} = \frac{20000}{k_{eq}} \cdot \frac{1}{\left(1-\left(\frac{2\pi}{\omega_1}\right)^2\right)} = \frac{6}{100}$$

$$u(t) = \frac{P_0}{k(1-\beta^2)}(\text{sen}\,\omega t - \text{sen}\,\omega t)$$

$$\text{Sigfd.}\ \frac{P_0}{k(1-\beta^2)}$$

$$\frac{20000}{\omega_1^2 \cdot 330\left[1-\frac{4\pi^2}{\omega_1^2}\right]} = 0{,}06 \quad \boxed{\omega_1 = 32{,}4\,rad/s}$$

$$k'_{eq} = \omega_1^2 m = 32{,}4^2 \cdot 330 = 346{,}4\ kN/m$$

$$k_1 = \frac{5}{7}k'_{eq} = \frac{5}{7} \cdot 346{,}4 = 247{,}4\ kN/m$$

2) $u_{máx} = u_{st}\frac{1}{(1-\beta^2)} = \frac{P_0}{k} \cdot \frac{1}{(1-\beta^2)}$ $\quad F_{máx} = k\,u_{máx} = \frac{P_0}{k}\,k\,\frac{1}{(1-\beta^2)} = 20000\,\frac{1}{\left(1-\frac{12\pi}{0{,}4}\right)^2}$

2

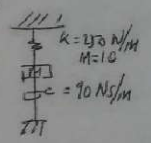

1) Coef. Amort. Crítico. $\quad c_{cr} = 2\sqrt{km} = 2\sqrt{250 \cdot 10} = 100\ \frac{N}{m}$

2) $\omega_n = \sqrt{\frac{k}{m}} = \sqrt{\frac{250}{10}} = 5\,rad/s$

$$\zeta = \frac{c}{c_{cr}} = \frac{90\ N\cdot s/m}{100\ N\cdot s/m} = 0{,}9$$

3) $\frac{1}{j40\%}\ln\left(\frac{u_1}{u_{j+1}}\right) = \frac{2\pi\zeta}{\sqrt{1-\zeta^2}} \Rightarrow j40\% = \frac{\ln\left(\frac{1}{0{,}4}\right)\cdot\sqrt{1-\zeta^2}}{2\pi\zeta}$

$$j40\% = \ln\frac{1}{0{,}4} \cdot \frac{\sqrt{1-0{,}9^2}}{2\pi\, 0{,}9} \Rightarrow$$

$$j40\% = 0{,}916 \cdot 0{,}0716 = 0{,}0706\ \text{ciclos}$$

Asignatura .....
Alumno ..... n.º .....
Curso ..... Grupo ..... Fecha .....

CUELA TECNICA SUPERIOR
E INGENIEROS NAVALES

BLOQUE 1

26/Junio/2015

P13

$T_n = 0{,}5\,s$

1) FC & MF base

$t_1 = \frac{0{,}1}{0{,}5} < 0{,}25$ Pulso Corto.

$u_0 = \frac{J \cdot 2\pi}{k \cdot T_n} = \frac{2{,}45 \cdot 2\pi}{k \cdot 0{,}5} = \frac{2{,}45 \cdot 2\pi \cdot kN \cdot s}{500\,\frac{kN}{m} \cdot 0{,}5\,s} = 0{,}0615\,m = 61{,}5\,mm$

$F_{st} = k u_0 = 500\,\frac{kN}{m} \cdot 0{,}0615 = 30{,}75\,kN$

$FC = 30{,}75\,kN$

$MF = 30{,}75 \cdot 6 = 184{,}75\,kN \cdot m$

2) a) $m_2 = 1{,}1\,m_1 \rightarrow \frac{\omega_2}{\omega_1} = \sqrt{\frac{\frac{k_2}{1{,}1\,m_1}}{\frac{k_1}{m_1}}} = \sqrt{\frac{1}{1{,}10}} = 0{,}949$; $\frac{T_2}{T_1} = \frac{2\pi\omega_1}{2\pi\omega_2} = \frac{1}{0{,}949} = 1{,}0537$

$T_2 = 1{,}0537 \cdot T_1 = 0{,}52685$

$u_0 = \frac{2{,}45 \cdot 2\pi}{500 \cdot 0{,}52685} = 0{,}0584\,m = 58{,}4\,mm$; $F = 500 \cdot 0{,}0584 = 29{,}2\,kN$

$MF = 157{,}[illegible]\,kN \cdot m$

b) $k_2 = 1{,}15\,k_1$

$\frac{T_2}{T_1} = \frac{\omega_1}{\omega_2} = \frac{1}{\sqrt{1{,}15}} \Rightarrow T_2 = 0{,}9325\,T_1 = 0{,}466$

$u_0 = \frac{2{,}45 \cdot 2\pi}{575 \cdot 0{,}466} = 0{,}0574$; $F = 575 \cdot 0{,}0574 = 33{,}01$

$1{,}15 \times 500$

$MF = 33{,}01 \cdot 6 = 198\,kN$

ESCUELA TECNICA SUPERIOR
DE INGENIEROS NAVALES

Asignatura .....
Alumno .....n.º.....
Curso .....Grupo ..... Fecha .....

26/06/2015
(55')

BLOQUE 2:

PP1

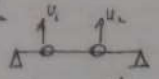

1) Frecuencias y modos propios

$\det |[k] - \omega^2[m]| = 0 \rightarrow \frac{12EI}{5L^3} = k \rightarrow \begin{vmatrix} 8k-\omega^2 m & -7k \\ -7k & 8k-\omega^2 m \end{vmatrix} = (8k-\omega^2 m)(8k-\omega^2 m)$

resolviendo: $\omega_1^2 = 15\frac{k}{m}$, $\omega_2^2 = \frac{k}{m}$ $\rightarrow$ $\omega_1 = \sqrt{15\frac{k}{m}}$, $\omega_2 = \sqrt{\frac{k}{m}}$

2) Por análisis modal → desplazamiento cuando en nodo 1 hay carga $P_1 = 100\ \text{kN}\ 25\ t$

$\ddot{q}_n + k_n q_n = P_{no}\ \text{sen}\,\omega t$; $P_{no} = \phi_n^T P_o = 100$

$P_{no} = \phi_1^T P_o = 100$

$P_{no} = (1\ 1)\begin{pmatrix} 100 \\ 0 \end{pmatrix} = 100$

$q_n(t) = \frac{P_{no}}{k_n} \cdot \frac{1}{1-\left(\frac{\omega}{\omega_n}\right)^2}\ \text{sen}\,\omega t$

$q_1(t) = \frac{100}{k_1} \cdot \frac{1}{1-\left(\frac{25}{\sqrt{15\frac{k}{m}}}\right)^2} \cdot \text{sen}\,25t$

$k_1 = (1\ 1)\begin{bmatrix} 8 & -7 \\ -7 & 8 \end{bmatrix}\begin{pmatrix} 1 \\ 1 \end{pmatrix} \cdot \frac{12EI}{5L^3} = \frac{12EI}{5L^3}(1\ 1)\begin{pmatrix} 1 \\ 1 \end{pmatrix} = \frac{12EI}{5L^3} 2 = \frac{24EI}{5L^3} \rightarrow q_1(t) = \frac{100 \cdot 5L^3}{24EI} \cdot \frac{1}{1-\left(\frac{25}{\sqrt{15\frac{k}{m}}}\right)^2}$

$k_2 = (1\ -1)\begin{bmatrix} 8 & -7 \\ -7 & 8 \end{bmatrix}\begin{pmatrix} 1 \\ -1 \end{pmatrix} \cdot \frac{12EI}{5L^3} = \frac{12EI}{5L^3}(1\ -1)\begin{pmatrix} 15 \\ -15 \end{pmatrix} = \frac{12EI}{5L^3} \cdot 30 = \frac{12EI \cdot 6}{L^3} \rightarrow q_2(t) = \frac{100 \cdot L^3}{12EI \cdot 6}$

$u = \phi q = \begin{Bmatrix} u_1(t) \\ u_2(t) \end{Bmatrix} = \begin{pmatrix} 1 & 1 \\ 1 & -1 \end{pmatrix}\begin{pmatrix} q_1 \\ q_2 \end{pmatrix} = \begin{pmatrix} q_1 + q_2 \\ q_1 - q_2 \end{pmatrix} = \begin{bmatrix} \frac{500L^3}{24EI} \cdot \frac{1}{1-\left(\frac{25}{\sqrt{15\frac{k}{m}}}\right)^2} + \frac{100L^3}{72EI} \cdot \frac{1}{1-\left(\frac{25}{\sqrt{\frac{k}{m}}}\right)^2} \\ \frac{500L^3}{24EI} \cdot \frac{1}{1-\left(\frac{25}{\sqrt{15\frac{k}{m}}}\right)^2} - \frac{100L^3}{72EI} \cdot \frac{1}{1-\left(\frac{25}{\sqrt{\frac{k}{m}}}\right)^2} \end{bmatrix} \cdot \text{sen}$

3) $\zeta = 0{,}1$

$q_n(t) = \frac{P_n}{k_n}\left[\frac{1-\left|\frac{\omega}{\omega_n}\right|^2}{\left(1-\left(\frac{\omega}{\omega_n}\right)^2\right)^2 + \left(2\zeta_n \frac{\omega}{\omega_n}\right)^2}\ \text{sen}\,\omega t + \frac{-2\zeta_n \frac{\omega}{\omega_n}}{\left(1-\left|\frac{\omega}{\omega_n}\right|^2\right)^2 + \left(2\zeta\frac{\omega}{\omega_n}\right)^2} \cdot \cos\omega t\right]$

$\omega_1 = 10\ \text{rad/s}$
$\omega_2 = 35{,}7\ \text{rad/s}$
$E\chi_2 = 9{,}69$

$q_1(t) = \frac{100 \cdot 5L^3}{24EI}\left[\frac{1-\left(\frac{25}{10}\right)^2}{\left(1-\left(\frac{25}{10}\right)^2\right)^2 + \left(2 \cdot 0{,}1 \cdot \frac{25}{10}\right)^2}\ \text{sen}\,25t - \frac{2 \cdot 0{,}1 \cdot 25}{\left(1-25^2\right)^2 + \left(2 \cdot 0{,}1 \cdot 25\right)^2} \cdot \cos\right.$

$q_2(t) = \frac{100 \cdot L^3}{72EI}\left[\frac{1-\left(25/35{,}7\right)^2}{\left(1-\left(\frac{25}{35{,}7}\right)^2\right)^2 + \left(2 \cdot 0{,}1 \cdot \frac{25}{35{,}7}\right)^2} \cdot \text{sen}\,25t - \frac{2 \cdot 0{,}1 \cdot 25/35{,}7}{\left(1-\left(\frac{25}{35{,}7}\right)^2\right)^2 + \left(2 \cdot 0{,}1 \cdot\right.}\right.$

$u = \phi q = \begin{Bmatrix} u_1(t) \\ u_2(t) \end{Bmatrix} = \begin{pmatrix} q_1(t) + q_2(t) \\ q_1(t) - q_2(t) \end{pmatrix}$ * Se sustituye lo obtenido anteriormente

$k = \begin{bmatrix} 100 & -100 \\ -100 & 200 \end{bmatrix}$ kg/s²

$M = \begin{bmatrix} 1 & 0 \\ 0 & 1 \end{bmatrix}$ kg

$T_1 = 1{,}01$ s

$T_2 = 0{,}39$ s

$\Phi = \begin{bmatrix} 1 & -0{,}618 \\ 0{,}618 & 1 \end{bmatrix}$; $\Gamma_1 = 1{,}17$; $\Gamma_2 = 0{,}28$

$$\begin{bmatrix} 1 & 0 \\ 0 & 1 \end{bmatrix} \begin{Bmatrix} \ddot{u}_1 \\ \ddot{u}_2 \end{Bmatrix} + \begin{bmatrix} 100 & -100 \\ -100 & 200 \end{bmatrix} \begin{Bmatrix} u_1 \\ u_2 \end{Bmatrix} = -\begin{bmatrix} 1 & 0 \\ 0 & 1 \end{bmatrix} \begin{Bmatrix} 1 \\ 1 \end{Bmatrix} \{\ddot{u}_g(t)\}$$

$\{u\} = \Gamma_i \Phi_i (D_i)$ → pseudo desplazamiento

$A_i = \omega_i^2 \cdot D_i \rightarrow D_i = \left(\frac{A_i}{\omega_i^2}\right)$ — pseudo aceleración

$$\{u\} = \Gamma_i \cdot \Phi_i \cdot \frac{A_i}{\omega_i^2}$$

$= 4{,}25\ m/s^2$

$= 7{,}3\ m/s^2$

$$u_{1\,max} = \Gamma_1 \Phi_1 \frac{A_1}{\omega_1^2} = 1{,}17 \begin{pmatrix} 1 \\ 0{,}618 \end{pmatrix} \frac{4{,}25}{6{,}2^2} = 0{,}1293 \begin{pmatrix} 1 \\ 0{,}618 \end{pmatrix} = \begin{pmatrix} 0{,}1293 \\ 0{,}08 \end{pmatrix} m$$

$\omega_1 = \frac{2\pi}{T_1} = \frac{2\pi}{1{,}01} = 6{,}2$ rad/s

$u_1' = 129$ mm

$u_2 = 80$ mm

$\omega_2 = \frac{2\pi}{T_2} = \frac{2\pi}{0{,}39} = 16{,}1$ rad/s

$$u_{2\,max} = \Gamma_2 \Phi_2 \frac{A_2}{\omega_2^2} = 0{,}28 \begin{pmatrix} -0{,}618 \\ 1 \end{pmatrix} \frac{7{,}3}{16{,}1^2} = \begin{pmatrix} -0{,}00 \\ 0{,}00 \end{pmatrix} m$$

$u_1^2 = -4{,}8$ mm

$u_2^2 = 7{,}9$ mm

de la fuerza cortante

Método 1:

$$F^1 = [k]\, u_{max}^{(1)} = \begin{bmatrix} 100 & -100 \\ -100 & 200 \end{bmatrix} \begin{Bmatrix} 0{,}1293 \\ 0{,}08 \end{Bmatrix} = \begin{bmatrix} 4{,}93 \\ 7{,}07 \end{bmatrix} N$$

$$F^2 = [k]\, u_{max}^{(2)} = \begin{bmatrix} 100 & -100 \\ -100 & 200 \end{bmatrix} \begin{Bmatrix} -0{,}0048 \\ -0{,}0079 \end{Bmatrix} = \begin{bmatrix} -1{,}27 \\ 2{,}06 \end{bmatrix} N$$

Método 2:

$$S_1 = \Gamma_1 M \Phi_1 = 1{,}17 \begin{bmatrix} 1 & 0 \\ 0 & 1 \end{bmatrix} \begin{bmatrix} 1 \\ 0{,}618 \end{bmatrix} = \begin{bmatrix} 1{,}17 \\ 0{,}723 \end{bmatrix} \rightarrow f^{(1)} = S_1 A_1 =$$

$$= \begin{bmatrix} 1{,}17 \\ 0{,}723 \end{bmatrix} \cdot 4{,}25 = \begin{bmatrix} 4{,}97 \\ 3{,}07 \end{bmatrix} N$$

$$S_2 = \Gamma_2 M \Phi_2 = 0{,}28 \begin{bmatrix} 1 & 0 \\ 0 & 1 \end{bmatrix} \begin{bmatrix} -0{,}618 \\ 0{,}28 \end{bmatrix} \rightarrow f^{(2)} = S_2 A_2 = \begin{bmatrix} -0{,}123 \\ 0{,}28 \end{bmatrix}$$

$$= \begin{bmatrix} -1{,}26 \\ 2{,}05 \end{bmatrix} N$$

Escuela Técnica Superior de Ingenieros Navales. Universidad Politécnica de Madrid

Curso 2016-2017 DINÁMICA DE ESTRUCTURAS Examen Final 01_02_2017

EJERCICIOS PRÁCTICOS: Tiempo: 1h 45 minutos

PP1. (2.5p)

En un buque oceanográfico se dispone un equipo de medida en un local situado a proa de Cámara de Máquinas. En este local se ha medido una aceleración de 1g (máximo admisible para el equipo) debido a movimiento de base para frecuencias de excitación de 13 Hz. Se conoce la frecuencia propia del equipo de medida que es igual a 9 Hz. Se considerará un ratio de amortiguamiento del 10%.

Se solicita:

1.- Indicar justificadamente el efecto que tendría en la aceleración transmitida al equipo el hecho de aumentar la frecuencia de excitación a 22 Hz. ¿y si se reduce hasta 9 Hz?

2.- Si en alguna de las dos situaciones anteriores la aceleración que le llega al equipo supera 1g, indicar qué influencia tendría:

a) Aumentar la masa al doble.

b) Disminuir la rigidez a la mitad, o aumentar la rigidez una vez y media la [illegible]

PP2. (1.75p)

Para un sistema amortiguado, se ha comprobado que el desplazamiento [illegible] equilibrio 10mm y tras transcurrir 4 s y 19 ciclos, el sistema mantiene [illegible]. Si el amortiguamiento "c" = 102 N.s/m, se pide calcular la masa del [illegible]

PP3. (1.25p)

Para la estructura de la figura, con 3 masas concentradas, se conocen:

$$M = \begin{bmatrix} 1 & 0 & 0 \\ 0 & 2 & 0 \\ 0 & 0 & 1 \end{bmatrix}, \quad K = \begin{bmatrix} 2 & -1 & 0 \\ -1 & 2 & -1 \\ 0 & -1 & 1 \end{bmatrix}, \quad \Phi = \begin{bmatrix} 0.4 & -1 & 0.6 \\ 0.866 & 0 & -0.866 \\ 1 & 1 & 1 \end{bmatrix}$$



$\omega_1 = \sqrt{0.347\,k/m}$ $\omega_2 = \sqrt{2\,k/m}$ $\omega_3 = \sqrt{3.73\,k/m}$

Se aplican fuerzas en los 3 niveles según la ley f(t)= S. p(t), donde S = [1 -1 1]^T y p(t) = sen wt. En este caso se solicita:

1.- (1.75p) Obtener la expansión modal del vector S, que define la distribución espacial de fuerzas.

2.- (0.75p) Calcular el valor de la fuerza estática en la [illegible]

3.- (0.75p) Obtener los factores de contribución modal

Escuela Técnica Superior de Ingenieros Navales. Universidad Politécnica de Madrid

Curso 2016-2017 DINÁMICA DE ESTRUCTURAS Final 01_02_2017

EJERCICIOS TEÓRICOS: Tiempo **15** minutos

PT1 (1.7p)

1.-Obtener la ecuación de movimiento del siguiente sistema mediante el Principio de D'Alembert. Indicar los pasos dados para llegar a la ecuación

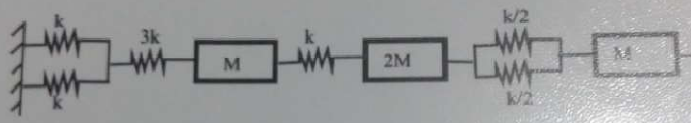

2.-Obtener la matriz de rigidez.

PT2 (0.8p)

Calcular la rigidez equivalente del siguiente sistema:

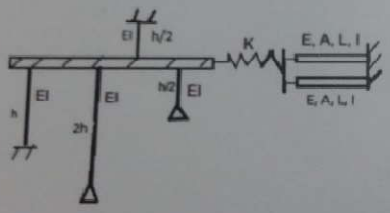

$\frac{3EI}{L^3}$ $\frac{12EI}{L^3}$